Jesuitinas
GAMARRA

TENGO UN...

PROBLEMA

3º Primaria

Alumno/a:

Las mariquitas

Colorea las mariquitas siguiendo las indicaciones.

1

La mariquita azul tiene más puntos que la roja.

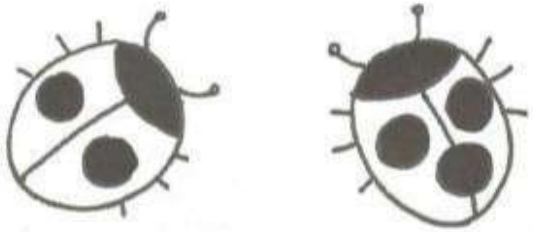

2

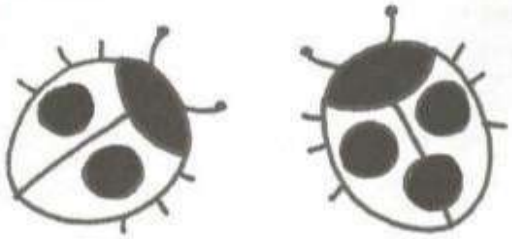

La mariquita verde tiene menos puntos que la amarilla.

3

La mariquita amarilla es más grande que la azul.

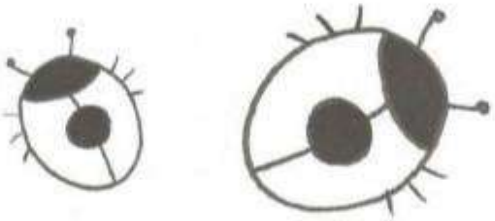

Las mariquitas

En cada recuadro, colorea de rojo la mariquita que tenga el mayor número de puntos y de amarillo la que tenga el menor.

1

2

3

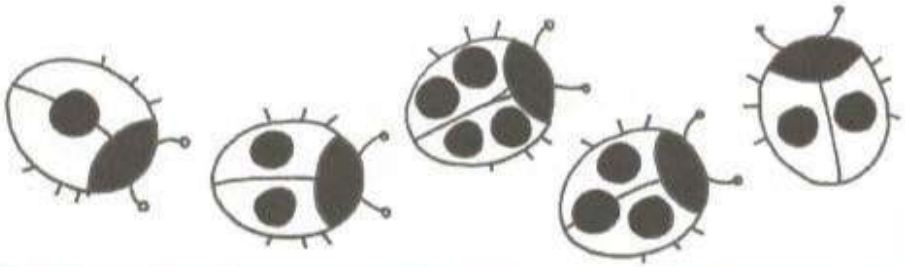

Mariquitas señoritas

Colorea las mariquitas siguiendo las indicaciones.

1

La mariquita roja tiene más puntos que la amarilla.

2

La mariquita roja tiene más puntos que la amarilla. La mariquita amarilla tiene más puntos que la azul.

3

Esta vez, la mariquita amarilla tiene más puntos que la azul. Y la azul más puntos que la roja.

Mariquitas señoritas

Colorea las mariquitas siguiendo las indicaciones.

1

La mariquita verde tiene menos puntos que la roja.

2

La mariquita verde tiene menos puntos que la roja. La mariquita roja tiene menos puntos que la azul.

3

Esta vez, la mariquita azul tiene menos puntos que la roja. Y la roja menos puntos que la verde.

Farándula de mariquitas

Colorea de rojo la primera mariquita de la farándula, y, a continuación, también de rojo, las que tengan tantos puntos como ella. Después, colorea de amarillo las que tengan más puntos que la primera mariquita, y de azul las que tengan menos.

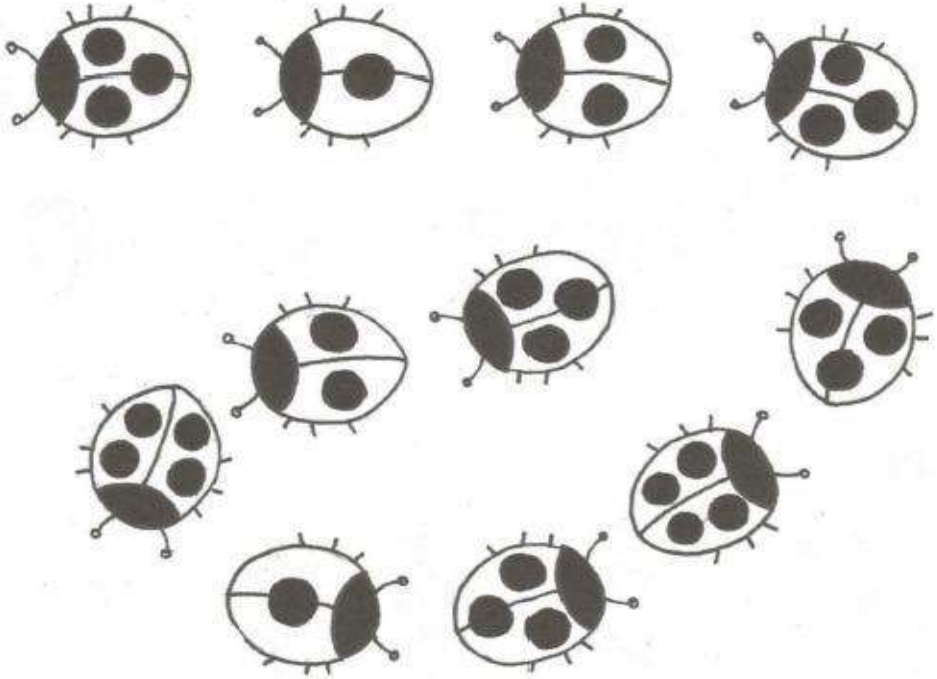

Peces delante

Colorea los peces según las indicaciones.

1



El pez gris nada delante del pez amarillo.

2

El pez amarillo nada delante del pez rojo.



3 El pez rojo nada delante del pez azul.
El pez rosa nada delante del pez rojo.



Peces detrás

Colorea los peces según las indicaciones.

1

El pez gris nada detrás del pez amarillo.

2



El pez rojo nada detrás del pez verde.

3

El pez azul nada detrás del pez amarillo. El pez naranja nada detrás del pez azul.

Peces

Colorea los peces siguiendo las indicaciones.

1



El pez rojo está delante del amarillo.
El pez rojo está detrás del verde.

2

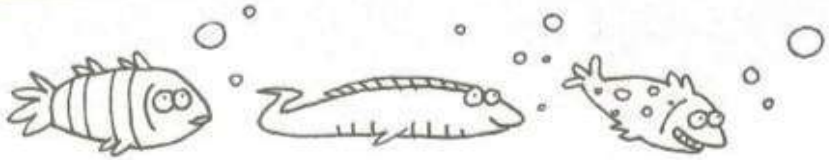

El pez amarillo está delante del rojo.
El pez amarillo está detrás del verde.

3

El pez verde está delante del amarillo.
El pez verde está detrás del rojo.

Los pescadores

Tres amigos van bajo la lluvia a pescar lucios.
Escribe los nombres de los tres pescadores sobre las líneas de puntos tras haber leído bien las indicaciones.

Ahora, completa estas frases:

..... es el más alto. ..... va el primero.

..... es el más bajo. ..... va el último.

Bonitas flores

Colorea de rojo las flores de 5 pétalos.



Colorea de rojo las flores que tienen 5 pétalos y 1 hoja.



Bonitas flores

Colorea las flores según las indicaciones.

1



La flor azul tiene más pétalos que la amarilla, pero menos hojas que la roja.

2

La flor roja tiene menos pétalos que la azul, pero más hojas que la amarilla.



3

La flor amarilla tiene más hojas que la roja, pero menos pétalos que la azul.

Las velas

Colorea las velas según las indicaciones.

1

La vela roja ha ardido más que la azul.

2

La vela amarilla ha ardido más que la roja.

3

La vela azul ha ardido más que la amarilla.

4



La vela roja ha ardido más que la amarilla.

Luz

Colorea las velas según las indicaciones.

1

La vela roja ha ardido menos que la azul.

2

La vela azul ha ardido menos que la roja.

3



La vela amarilla ha ardido menos que la azul.

4



La vela amarilla ha ardido menos que la roja.

Calor

Colorea las velas según las indicaciones.

1



La vela azul ha ardido menos que la amarilla.
Y la vela amarilla ha ardido menos que la roja.

2



La vela verde ha ardido menos que la roja.
Y la roja ha ardido menos que la amarilla.

Llamas

Colorea las velas según las indicaciones.

1



La vela azul ha ardido más que la amarilla.
Y la amarilla más que la roja.

2

La vela roja ha ardido más que la azul.
Y la azul más que la amarilla.

¿Adónde ir?

Ayuda a las mariquitas a desplazarse siguiendo las indicaciones.

1



Esta mariquita avanza 2 casillas hacia las cerezas.
Colorea de rojo su nueva casilla.

2

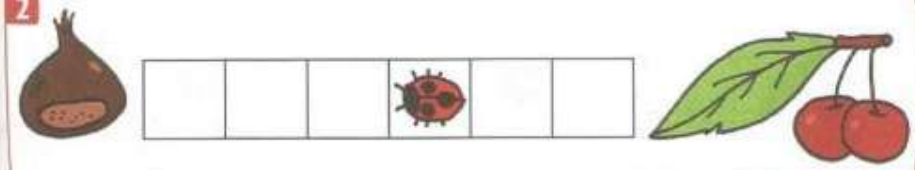

Esta mariquita avanza 3 casillas hacia la castaña.
Colorea de verde su nueva casilla.

3

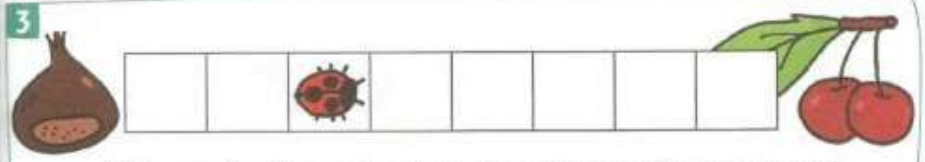

Esta mariquita se desplaza 4 casillas hacia las cerezas,
y, desde ahí, 5 casillas hacia la castaña.
Colorea de azul su nueva casilla.

Pasito a paso

Las mariquitas han salido de la casilla azul
y se han desplazado hacia las cerezas o hacia la castaña.
Coloréalas según las indicaciones.

1

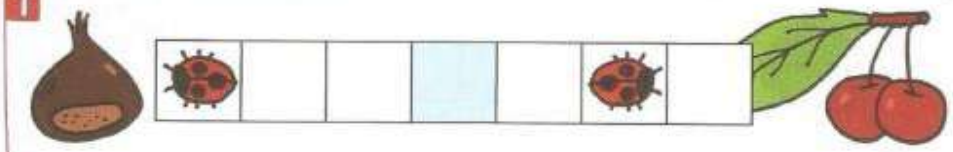

La mariquita roja ha avanzado 2 casillas hacia las cerezas.
La mariquita verde ha avanzado 3 casillas hacia la castaña.

2

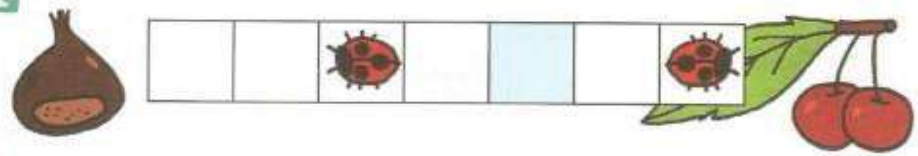

La mariquita roja ha avanzado 2 casillas hacia la castaña.
La mariquita verde ha avanzado 2 casillas hacia las cerezas.

3



La mariquita roja ha avanzado 3 casillas hacia la cereza.
La mariquita verde ha avanzado 2 casillas hacia la castaña,
y luego 4 casillas hacia la cereza.

¡Deprisa!

Colorea la casilla de llegada de las mariquitas
siguiendo las indicaciones.

1

La mariquita se desplaza
una casilla hacia arriba;
luego, 2 casillas hacia la derecha.
Colorea de rojo la casilla
de llegada.

2

La mariquita se desplaza 3 casillas
hacia la derecha, una casilla hacia
arriba, y, por último, 2 casillas
hacia la izquierda. Colorea
de verde la casilla de llegada.

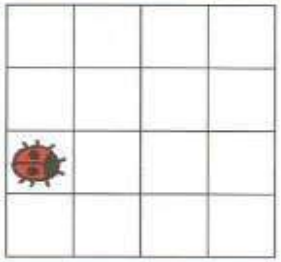

3

La mariquita se desplaza 2 casillas
hacia la izquierda, 2 casillas
hacia arriba, 2 casillas hacia la
derecha, y 2 casillas hacia abajo.
Colorea de amarillo la casilla
de llegada.



¡Deprisa!

Colorea la casilla de llegada de las mariquitas siguiendo las indicaciones.

1

La mariquita se desplaza una casilla hacia arriba; luego, 2 casillas hacia la derecha. Colorea de rojo la casilla de llegada.



2

La mariquita se desplaza 3 casillas hacia la derecha, una casilla hacia arriba, y, por último, 2 casillas hacia la izquierda. Colorea de verde la casilla de llegada.



3

La mariquita se desplaza 2 casillas hacia la izquierda, 2 casillas hacia arriba, 2 casillas hacia la derecha, y 2 casillas hacia abajo. Colorea de amarillo la casilla de llegada.



El código

Aquí tienes un código de desplazamiento:

I = hacia la izquierda
D = hacia la derecha
A = hacia arriba
B = hacia abajo

Por ejemplo: I3 significa que la mariquita se desplaza 3 casillas hacia la izquierda.

Otro ejemplo: D4 - A2. La mariquita se desplaza 4 casillas hacia la derecha, y, luego, 2 casillas hacia arriba.

Aquí tienes un desplazamiento codificado:

A4 - I2 - B6 - I1 - A5 - D6 - B4 - I7

Colorea la casilla de llegada.

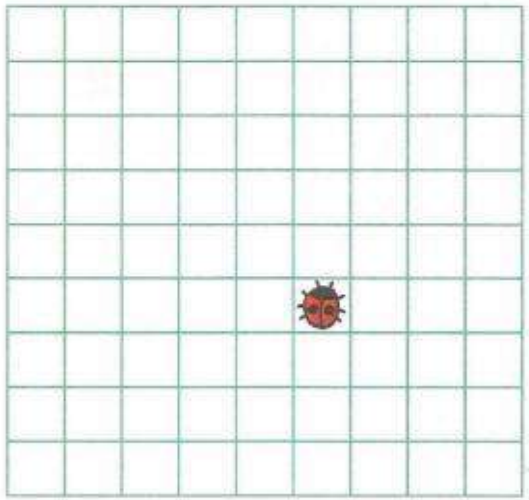

Mis tíos

¿De quiénes son tíos estos personajes?
Escribe el nombre de la niña o el niño que corresponda tras haber leído las indicaciones.

El tío de Miguel lleva sombrero y bigote.
El tío de Lucía lleva sombrero pero no bigote.
El tío de Norma lleva bigote pero no sombrero.
El tío de Daniel no lleva ni bigote ni sombrero.

Yo soy el tío de .....

Yo soy el tío de .....

Yo soy el tío de .....

Y yo soy el tío de .....

El tío Ramón

Observa bien el retrato del tío Ramón.
A continuación, tras cada frase, escribe VERDADERO o FALSO.

El tío Ramón lleva bigote. .....

El tío Ramón lleva sombrero. .....

El tío Ramón lleva barba. .....

El tío Ramón no lleva barba. .....

El tío Ramón no lleva sombrero. .....

El tío Ramón no lleva gafas. .....

El tío Ramón lleva bigote y sombrero. .....

El tío Ramón lleva barba y sombrero. .....

El tío Ramón lleva gafas y bigote. .....

Brrr...

Lee bien las indicaciones que hay debajo del dibujo y rodea con un círculo el muñeco de nieve que ha hecho Óscar.

Óscar no le ha puesto sombrero a su muñeco de nieve, y tampoco lleva ni rama ni rastrillo.

Ha nevado otra vez

Lucas, Iris y Max han hecho cada uno un muñeco de nieve. ¿Cuál? Lee bien las indicaciones que hay debajo del dibujo, y completa los carteles.

El muñeco de nieve de Lucas tiene gorro y lleva una escoba.
El muñeco de nieve de Iris lleva paraguas y pipa.
El muñeco de nieve de Max lleva paraguas y gorro.

En la hierba

Colorea de rojo las setas con sombrero puntiagudo.

Colorea de verde las setas con sombrero puntiagudo y anillo.



Sombrero puntiagudo, sombrero redondo

Colorea las setas después de haber leído las indicaciones.

1



La seta roja tiene sombrero puntiagudo y anillo.
La seta verde tiene sombrero redondo pero no anillo.
La seta amarilla tiene sombrero puntiagudo pero no anillo.

2



La seta roja tiene sombrero redondo pero no anillo.
La seta verde tiene sombrero puntiagudo y anillo.
La seta amarilla tiene sombrero redondo y anillo.
La seta azul tiene sombrero puntiagudo pero no anillo.

En la hierba

En cada recuadro, colorea la seta que va a coger uno de los dos tíos.

1



El tío Mario no coge setas con sombrero redondo ni con anillo.

2

El tío Alfredo no coge setas con sombrero puntiagudo ni tampoco sin anillo.

Tres cubos

Aquí tienes 3 cubos. Colorea el primero de rojo, el segundo de amarillo, y el tercero de azul.

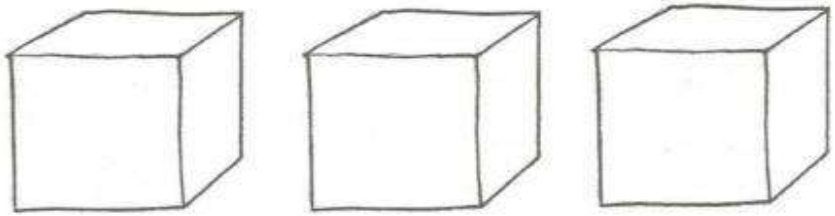

Superponlos de 6 formas diferentes. Para ello, colorea el ejemplo y halla el resto de soluciones.

Ejemplo:

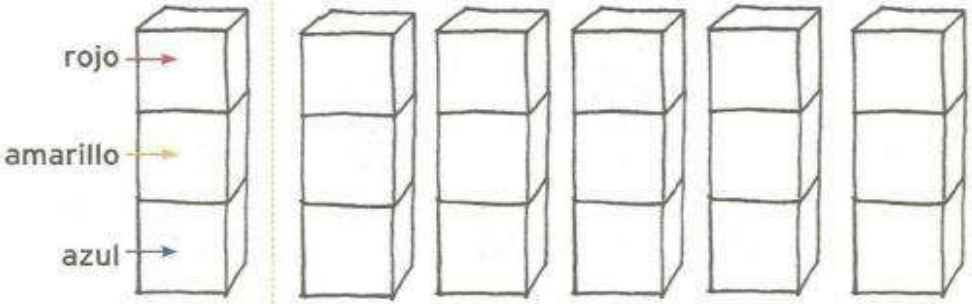

La carrera

La tortuga, el caracol y la mariquita echan una carrera. ¿En qué orden van a llegar?



Indica en la tabla todas las posibilidades de llegada de la carrera.

Para ayudarte, te damos la primera línea como ejemplo.

1	tortuga	caracol	mariquita
2	tortuga	mariquita	
3	mariquita		
4			
5			
6			

Y glu glu glu...

Tomemos una botella y un vaso.

La botella puede estar llena o vacía.



El vaso puede estar lleno o vacío.



Colorea de modo que obtengas 4 dibujos diferentes.



Juguemos a los cubos

En cada recuadro, colorea de rojo el cubo que cambia de lugar entre las dos construcciones.

1

2

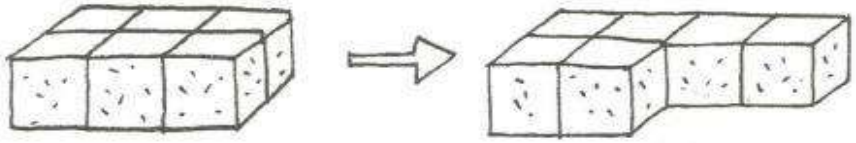

3

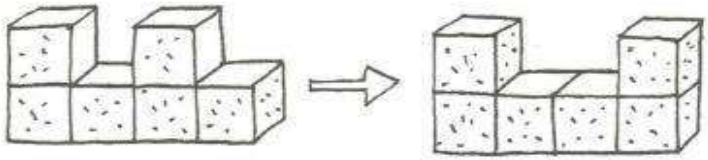

Las manzanas

Colorea las manzanas según las indicaciones.

1



La manzana roja y la amarilla tienen una hoja.
La manzana roja está a la derecha de la verde.

2



La manzana roja y la amarilla tienen una hoja.
Ahora la manzana roja está a la izquierda de la verde.

¿Donde está?

En una casilla de la tabla hay una mariquita. Búscala y coloréala de rojo.

¿Qué ves en estas casillas?

Casilla B2 : ..... Casilla E3 : .....

Casilla A5 : ..... Casilla D1 : .....

Casilla C3 : ..... Casilla A2 : .....

Casilla E5 : ..... Casilla B5 : .....

¿En qué casilla está el abeto? .....

Las regiones

En cada recuadro, colorea de rojo, de amarillo o de azul cada región.
Pero ¡presta atención!, pues no pueden tocarse dos regiones del mismo color.







El retrato del tío Julio



El retrato del tío Julio no está acabado. Termínalo después de haber observado bien los elementos y leído las indicaciones.

Elementos para acabar el dibujo:

ojo abierto

ojo cerrado

pelo liso

pelo rizado

Si eres chica, ponle ojos abiertos al tío Julio; si no, cerrados.
Si eres chico, ponle pelo liso; si no, dibújalo con pelo rizado.

Un bonito dibujo

Escribe aquí tu nombre: .....

Marca lo que sea correcto: comienza por → vocal. / consonante.

Este dibujo no está terminado.
Acábalo con los elementos que se te proponen y siguiendo las indicaciones.



Elementos para acabar el dibujo:

ventana cerrada

ventana abierta

sol

nube

Si tu nombre empieza por vocal, dibuja una ventana abierta en la casa; si no, dibújala cerrada.
Si tu nombre no empieza por vocal, dibuja el sol encima del árbol; si no, dibuja una nube.

Paisaje

Numera los dibujos del más sencillo al más completo.

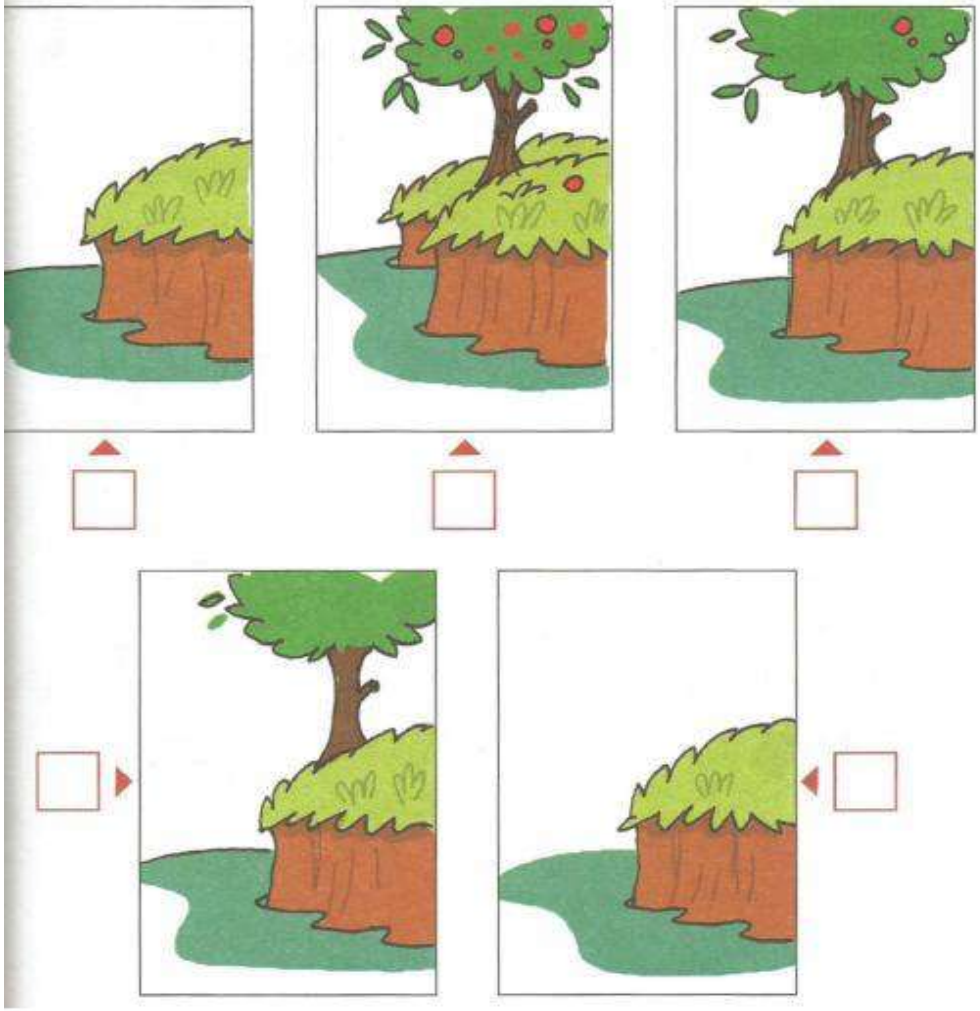

Las camisetas

Mi hermano pequeño ha dibujado a sus amigos jugando al fútbol. Sus camisetas son rojas, amarillas y azules.

Coloréalas de manera que sean todas diferentes.



Las ricas manzanas

Aquí tienes una manzana con una hoja.
La manzana puede ser roja, amarilla o verde.
La hoja puede ser amarilla o verde.

Colorea de 6 maneras diferentes las manzanas con las hojas.



Mosaico

En cada recuadro, colorea los 4 cuadrados de rojo, azul, verde o amarillo siguiendo las indicaciones.

1

El cuadrado rojo está a la izquierda del cuadrado azul y encima del cuadrado verde. No te olvides del cuadrado amarillo.

2

El cuadrado rojo está a la izquierda del cuadrado azul y debajo del cuadrado verde. No te olvides del cuadrado amarillo.



3



El cuadrado rojo está a la derecha del cuadrado azul y encima del cuadrado verde. No te olvides del cuadrado amarillo.

4

El cuadrado rojo está a la derecha del cuadrado azul y debajo del cuadrado verde. No te olvides del cuadrado amarillo.



Compón tu paisaje

Aquí tienes 4 dibujos idénticos. Invéntate 4 paisajes diferentes dibujando en cada recuadro una casa y una luna.

La casa puede estar a la izquierda o a la derecha del árbol.
La luna también puede estar a la izquierda o a la derecha del árbol.

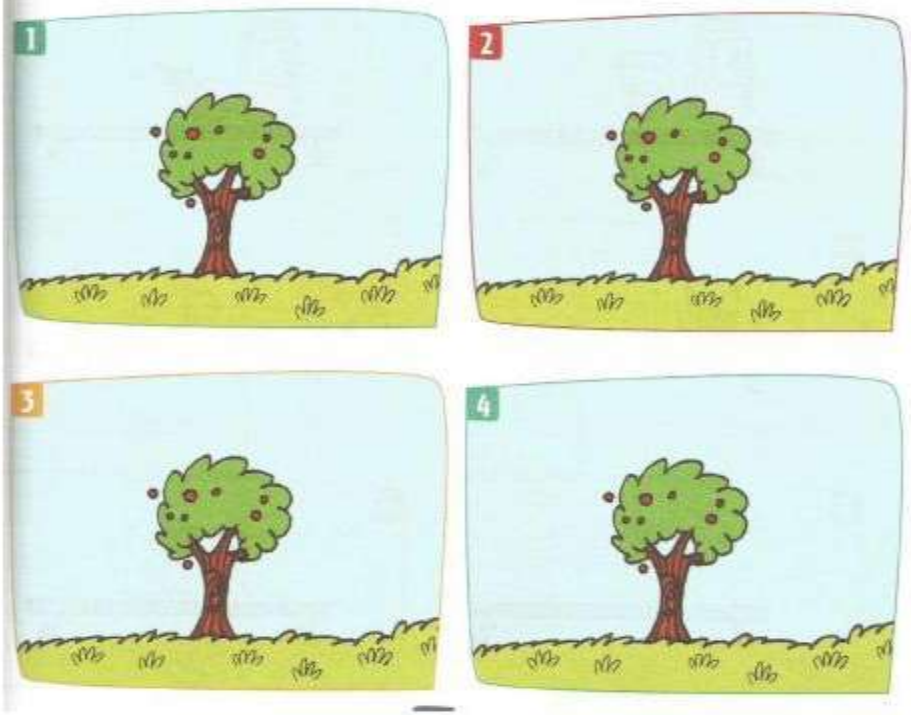

Los objetos de la mesa

Aquí tienes 3 dibujos que puedes reproducir fácilmente: una botella, un vaso y una manzana.

Dibuja en seis posiciones diferentes estos 3 objetos encima de la mesa.
Para ayudarte, ya hemos realizado los 3 primeros dibujos.

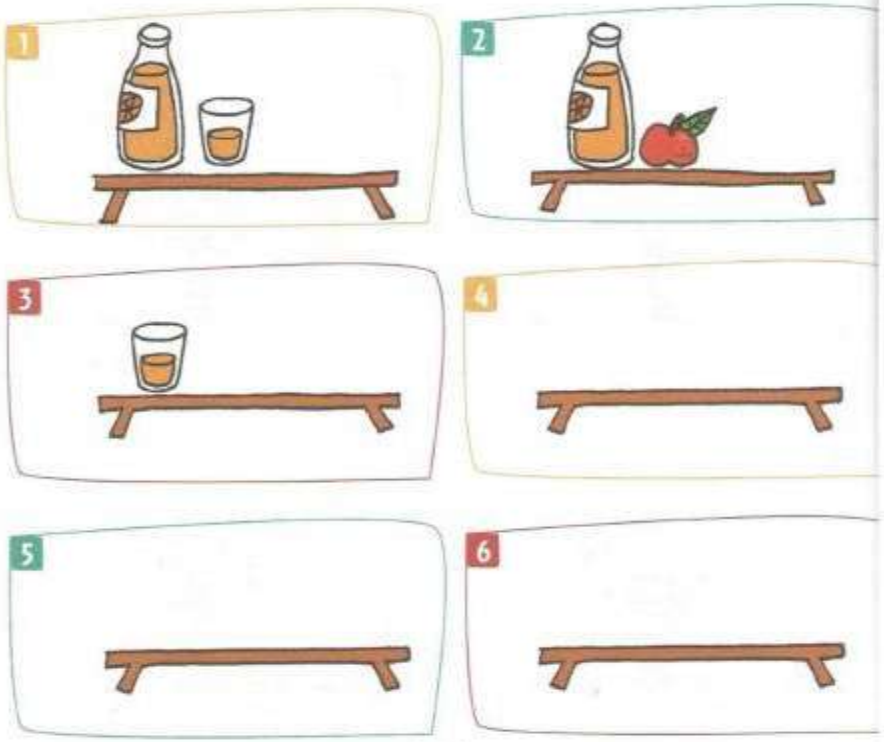

Rojo o verde

En cada figura, colorea todos los cuadrados para que haya tantos verdes como rojos.

1



2



3

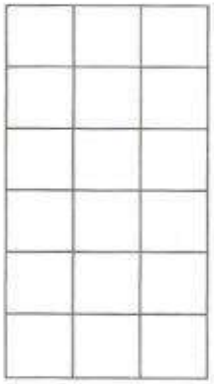

4



Estrellas fugaces

En cada recuadro, colorea todas las estrellas para que haya una estrella amarilla más que estrellas rojas.

1



2

3

4

Cielo estrellado

Colorea las estrellas siguiendo las indicaciones.

1



Colorea 3 estrellas amarillas más que estrellas rojas.

2

Colorea 2 estrellas azules más que estrellas amarillas.

3

Colorea una estrella roja más que estrellas azules.

4



Colorea 4 estrellas rojas más que estrellas amarillas.

El cubo de más

En cada recuadro, colorea de verde el cubo que hay que quitar de la primera construcción para obtener la segunda.

1

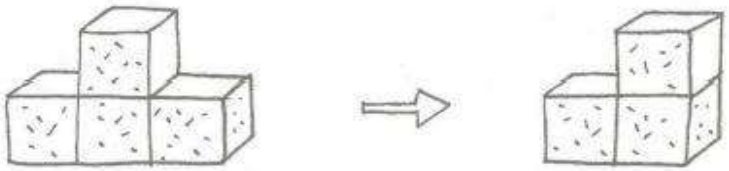

2



3



Deshojemos la margarita

La margarita pierde los pétalos uno a uno.
Numera los dibujos comenzando por el que muestra a la margarita con todos los pétalos y acabando con el que menos tenga.



Formas y colores (1)

Un polígono es una figura geométrica que tiene varios lados.

En cada recuadro:

- colorea de amarillo los polígonos de 3 lados.
- colorea de rojo los polígonos de 4 lados.

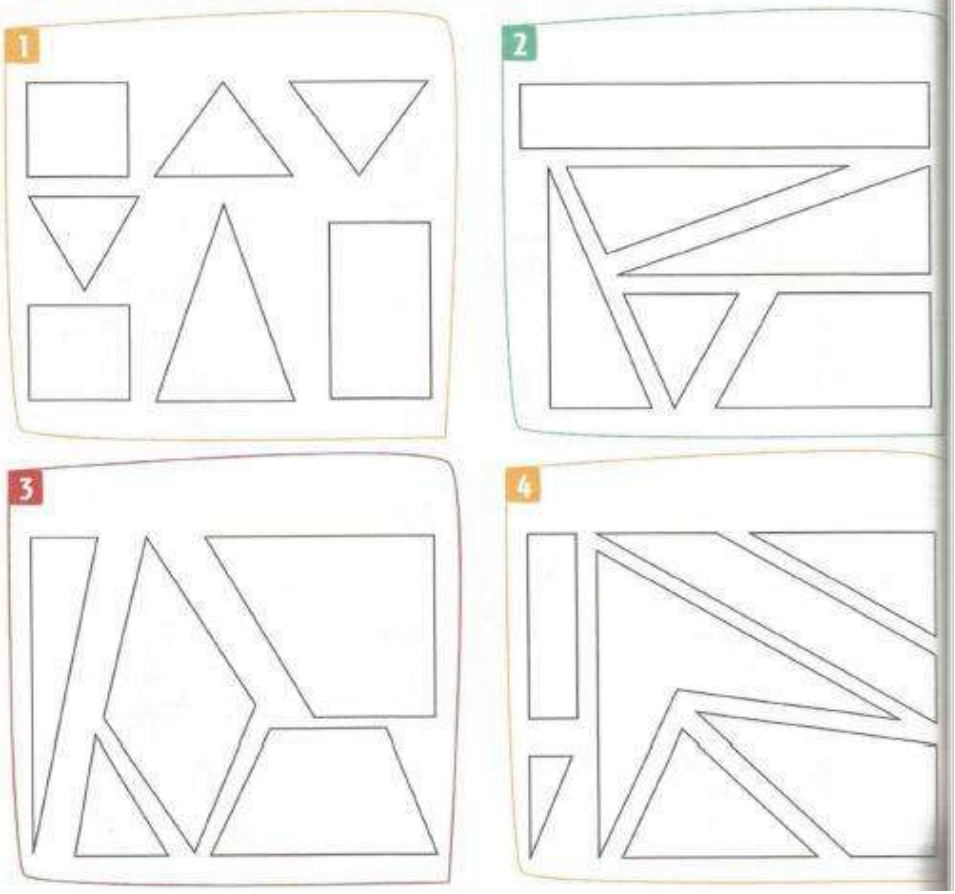

Formas y colores (2)

En cada recuadro:

- colorea de amarillo los polígonos de 3 lados.
- colorea de rojo los polígonos de 4 lados.
- colorea de azul los polígonos de 5 lados.

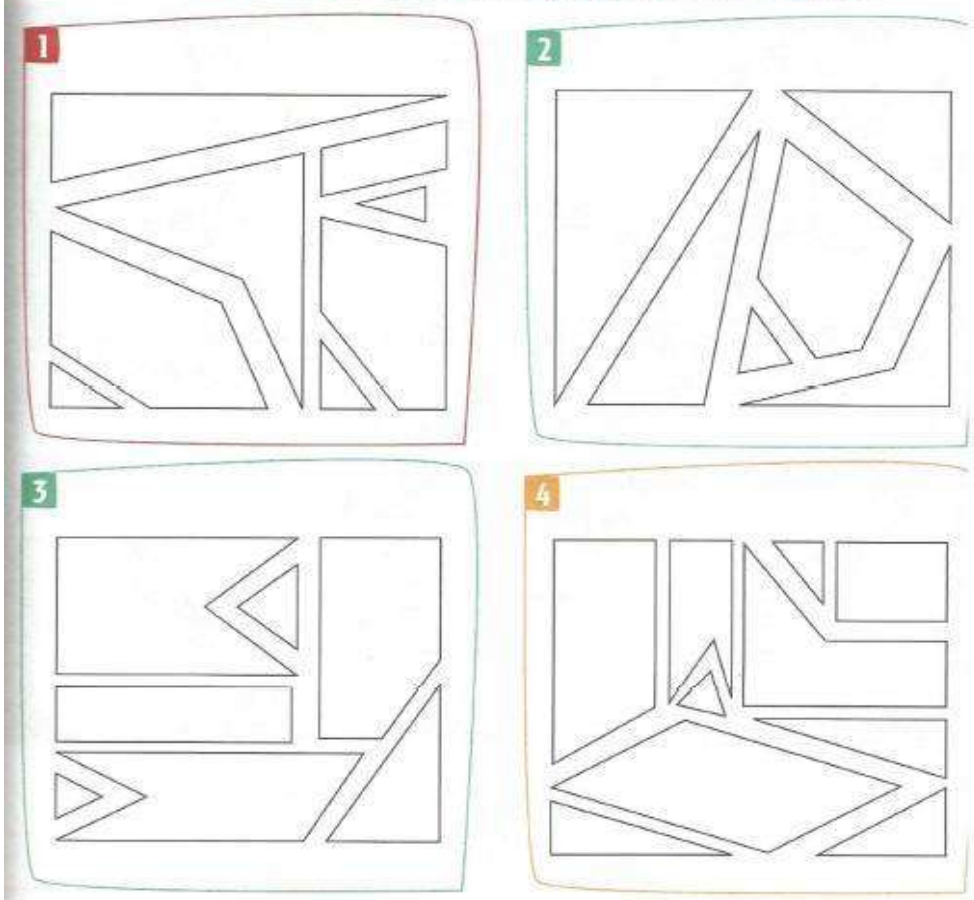

La hermosa vidriera

Para hacer la vidriera más luminosa: colorea de amarillo los elementos de 3 lados, de rojo los elementos de 4 lados, de azul los de 5 lados, y los demás de naranja.



¿Cuántos elementos has coloreado de

amarillo? ☐ rojo? ☐ azul? ☐ naranja? ☐

Los amigos de Mehdi

Mehdi les ha hecho una foto a sus amigos.
Escribe sus nombres según las explicaciones.

Lucas tiene el pelo rizado y lleva una bufanda. Clemente lleva un suéter rayado pero no lleva gorro. Simón también lleva un suéter rayado. Jaime también está en la foto.

Ahora, responde con VERDADERO o FALSO a las siguientes frases.

Clemente y Simón llevan un suéter rayado. .....

Clemente y Lucas llevan el pelo rizado. .....

Jaime y Lucas no llevan gorro. .....

Contemos bien

En cada recuadro, colorea la forma geométrica que esté más veces dibujada.

Ejemplo: aquí, habrías de colorear los cuadrados, pues son más numerosos que los círculos.

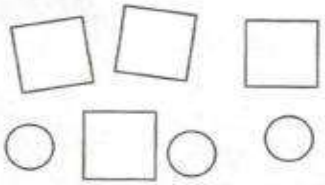

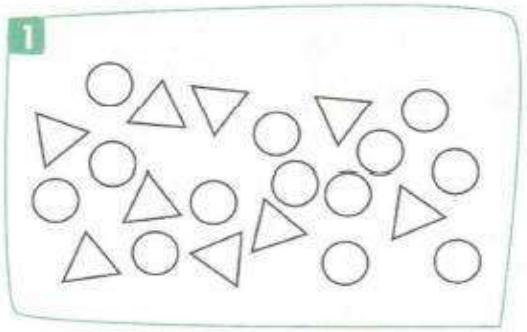

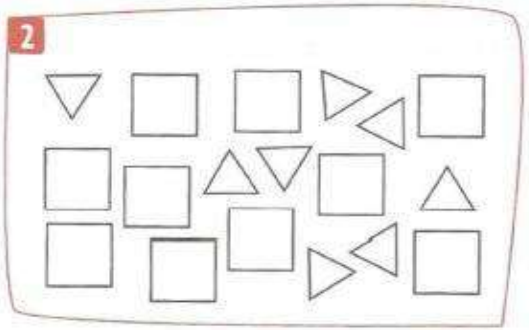



Apuntar a una casilla

En cada cuadrícula, pinta de rojo la casilla a la que apunten las dos flechas.

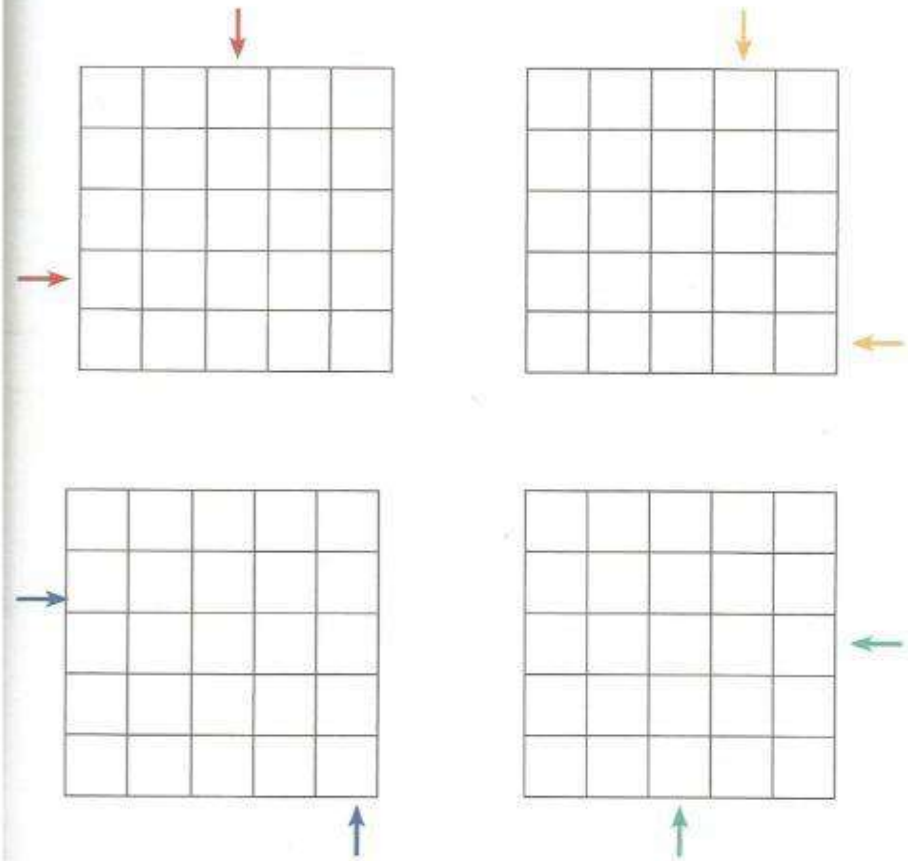

Apuntar a las casillas

En cada cuadrícula, colorea de azul las casillas a las que apunten dos flechas.
Presta atención, pues el número de casillas que has de colorear no es el mismo en cada cuadrícula.

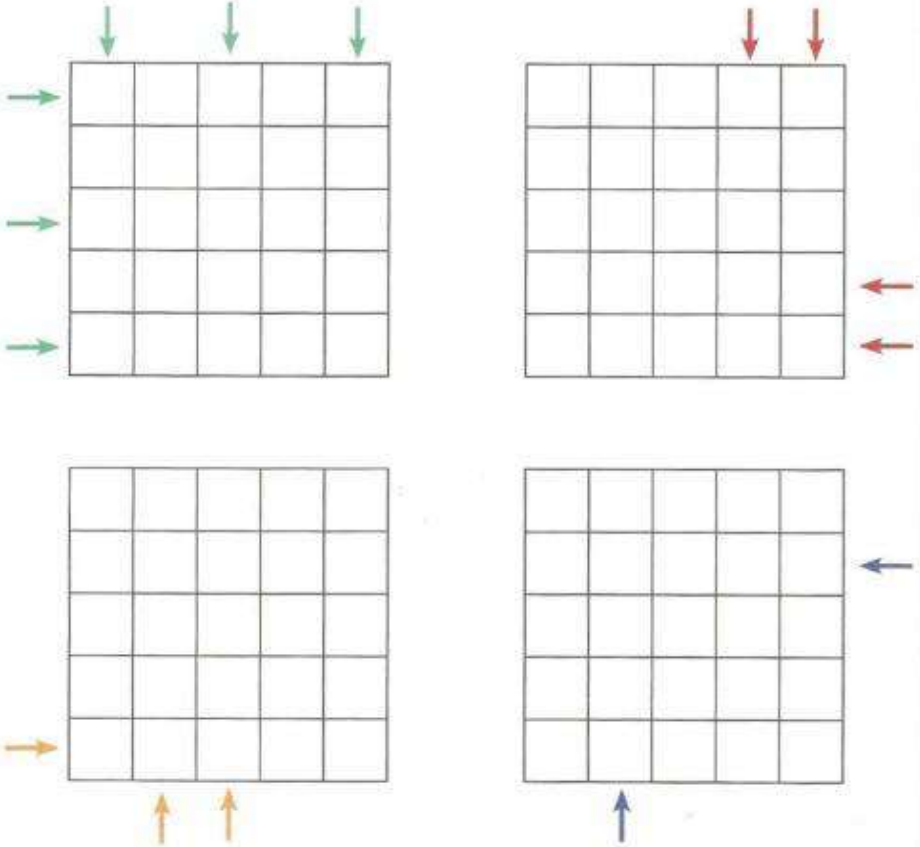

Apuntar a otras casillas

En cada cuadrícula, colorea de amarillo las casillas a las que no apunte ninguna flecha.
Presta atención, pues el número de casillas cambia en cada cuadrícula.

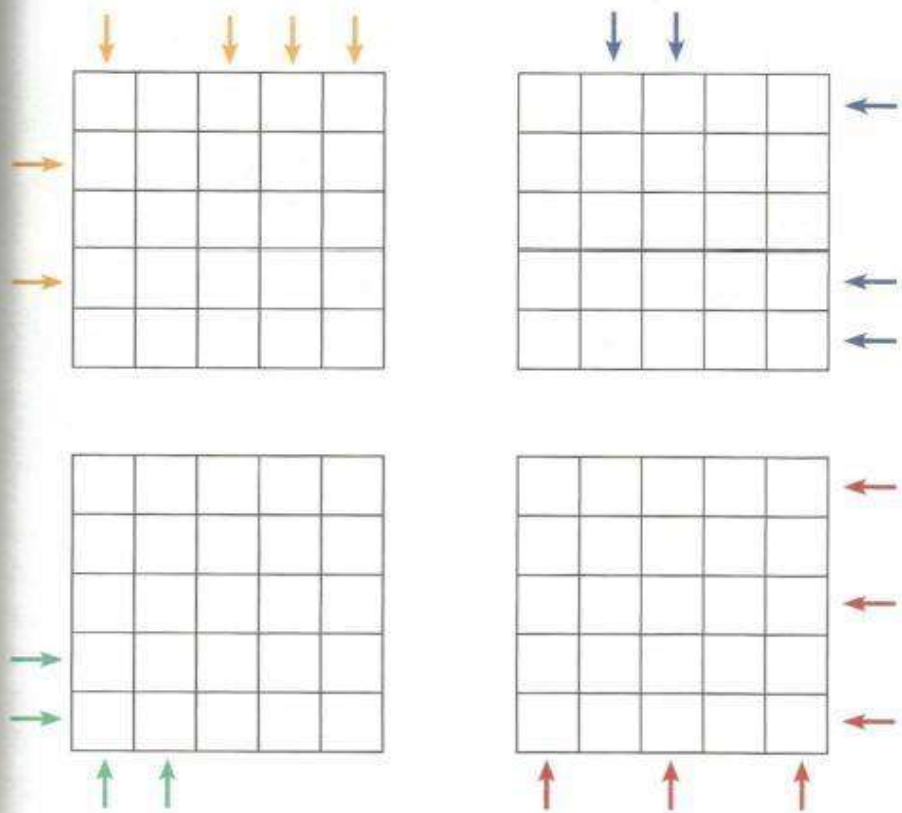

Los dos payasos

Colorea la ropa de los payasos según las indicaciones.
A continuación, escribe sus nombres sobre las líneas de puntos.

....

El payaso que tiene un paraguas lleva un sombrero verde y chaqueta azul.
El payaso con gafas lleva un sombrero rojo y una chaqueta roja.
El que no lleva gafas lleva una pajarita amarilla.
El que no tiene paraguas lleva una pajarita azul.
Los dos payasos llevan pantalones amarillos.
El payaso Arsenio no lleva nada rojo encima; el otro se llama Casimiro.

La botella se llena

Numera las botellas de la que menos a la que más líquido tenga.



¡Qué escandalosos!

Colorea los loros siguiendo las indicaciones.

1

El loro rojo está más alto que el verde.
El loro verde está más alto que el amarillo.

2

El loro azul está menos alto que el amarillo.
El loro amarillo está menos alto que el rojo.

El perro Bilú

Lee el siguiente texto y observa el dibujo.

Bilú no es un buen perro guardián: prefiere jugar con los niños. Cuando se asusta, se refugia al fondo de su caseta o va a arañar la puerta de la casa.

En cada frase, escribe verdadero o falso.

Bilú ya se ha comido el hueso. .....

Bilú no está atado. .....

Bilú está en su caseta. .....

Bilú no está en su caseta y no se ha comido el hueso. .....

Bilú no está atado y se ha comido el hueso. .....

Bilú es un buen perro guardián que se ha comido el hueso. .....

Bilú no es un buen perro guardián y no se ha comido el hueso. .....

1. Darío ha recogido 1.722 uvas verdes y Elena 1. 272 uvas negras. ¿Quién de los dos ha recogido más uvas?

2. Para su fiesta de cumpleaños, Oliver ha comprado 10 botellas de batido de fresa, 11 de vainilla y 8 de chocolate. ¿Cuántas botellas ha comprado en total?

3. Carlota tiene 125 hojas blancas y 227 hojas azules. ¿Cuántas hojas tiene?

4. David tiene 29 euros y quiere comprar un juego de ordenador que vale 38 euros. ¿Cuántos euros le faltan para comprar el juego?

5. En el parque jugaban 236 niños. Se han marchado 145 y han venido 97. ¿Cuántos niños juegan en el parque?

6. En el colegio de Sonia hay 147 niños y 154 niñas, y en el colegio de Sofía hay 196 niños y 177 niñas. ¿Cuántos niños hay entre los dos colegios? ¿Y cuántas niñas?

7. En el quiosco de la playa comen 47 mujeres y 29 hombres. ¿Cuántas mujeres más que hombres comen en el quiosco?

8. Un muñeco de nieve y una silla pesan 84 kilos. Si la silla pesa 12 kilos, ¿cuánto pesa el muñeco de nieve?

9. Carmen ha comprado dos bolsas de caramelos. En una bolsa tiene 132 caramelos de limón y 215 de fresa, y en la otra bolsa 251 caramelos de menta. ¿Cuántos caramelos tiene en total?

10. En una biblioteca había 3.408 libros y se han prestado 1.179. ¿Cuántos libros quedan ahora en la biblioteca?

11. En el curso de Santi hay 120 alumnos, y 67 son niñas. Santi ha calculado que 35 son niños, y Salma le dice que se ha equivocado al restar. ¿Por qué?

12. David ha vendido 1.200 papeletas para una rifa benéfica y su hermana Sara ha vendido 3.525 papeletas. ¿Cuántas papeletas han vendido entre los dos?

13. En la calle donde vive Victoria se han recogido en el contenedor para reciclar vidrio 1.350 botellas de vidrio, y en la calle de su primo Alejandro, 8 centenas. ¿En qué calle se han recogido más botellas? ¿Cuántas botellas se han recogido en total entre las dos calles?

14. Los alumnos de dos colegios van a ir al circo; de un colegio van a ir 230 alumnos y del otro colegio van 390. ¿Cuántos alumnos en total van a ir al circo?

15. En una biblioteca hay en total 3.500 libros: 125 son libros de misterio, 1.280 son libros de aventuras, 36 son libros de poesía y el resto son de temas variados. ¿Cuántos libros hay en total de misterio y de aventuras?

16. En el campo de fútbol de un pueblo caben 3.560 personas. En un partido importante entraron 2.875 personas. ¿Cuántas personas faltaban para conseguir un lleno completo del campo?

17. Una biblioteca que tiene tres salas posee 5.000 libros. En la sala A hay colocados 1.365 libros; en la sala B hay estanterías con 978 libros. ¿Cuántos libros hay en la sala C?

18. Un camión, cuyo peso es de 4.578 kg. lleva una carga de 3.458 kg. de patatas. ¿Cuántos kilogramos marcará la báscula al pesarlo?

19. De una piscina que contiene 54.789 litros se han sacado 8.970 litros por la mañana y 12.678 litros por la tarde. ¿Cuántos litros quedan en la piscina?

20. En el comedor del colegio había 720 naranjas. Si se han utilizado 436 para hacer zumos, ¿cuántas naranjas han quedado?

21. En el maratón del colegio, Violeta ha corrido 2.352 metros y Mikel, 645 metros menos que Violeta. ¿Cuántos metros ha corrido Mikel?

22. Marco ha comprado 3 kilos de manzanas y 2 kilos de peras. Para hacer una tarta ha utilizado 2 kilos de manzanas. ¿Cuántos kilos de fruta le quedan?

23. Paloma y Miguel han hecho una marca en la pared para ver lo que miden. Miguel mide 153 y Paloma 147. ¿Cuál es la diferencia entre los dos?

24. En la taquilla del teatro se han vendido 1.385 entradas y 413 se han vendido por teléfono. Si hay 2.000 entradas en total. ¿Cuántas quedan por vender?

25. La clase de Ainhoa ha recogido 7 centenas y 4 decenas de hojas de papel para reciclar. ¿Cuántas hojas han recogido en total?

26. Jesús tiene en su granja 129 gallinas y 219 polluelos. ¿Tiene más gallinas o más polluelos?

27. Elisa vive en el octavo piso, Víctor 2 pisos por debajo y Eva 3 por encima de Víctor. ¿En qué piso vive Víctor? ¿Y Eva?

28. El padre de Antonio tiene 43 años y su madre, 9 años más. ¿Cuántos años tiene entre los dos?

29. ¿Cuántas flores hay en 7 floreros con 6 flores cada uno?

30. Una bolsa de caramelos tiene 21 unidades. ¿Cuántos caramelos tiene Ángel si ha comprado 8 bolsas?

31. ¿Cuántos pétalos tienen 31 margaritas de 6 pétalos cada una?

32. María José compró 7 chicles. Cada paquete tiene 10 chicles. ¿Cuántos chicles compró María José?

33. En una carpintería fabrican 11 armarios cada semana. ¿Cuántos armarios fabrican en 5 semanas?

34. Una caja tiene 24 magdalenas. ¿Cuántas magdalenas lleva Sonia si ha comprado 2 cajas?

35. Fermín tiene 22 rosales en su jardín y cada rosal tiene 4 rosas. ¿Cuántas rosas hay en el jardín de Fermín?

36. ¿Cuántos huevos hay en 4 cajas de 24 huevos?

37. En un parque hay 132 farolas. Cada farola tiene 3 bombillas. ¿Cuántas bombillas hay en el parque?

38. ¿Cuántas ruedas tienen 312 coches?

39. Alejandro ha comprado 33 caramelos. Si cada caramelo cuesta 3 céntimos, ¿cuántos céntimos ha pagado Alejandro?

40. En el restaurante de Luis hay 31 mesas y cada mesa tiene 6 sillas. ¿Cuántas sillas hay en el restaurante?

41. En un cine caben 430 personas. Si el cine se llena cada día, ¿cuántas personas entrarán al cabo de una semana?

42. En un aparcamiento hay 72 plazas para coches y 28 para motos en cada planta. Si el aparcamiento tiene 7 pantas. ¿Cuántas plazas hay en total?

43. Un cocinero tiene que preparar el menú para 169 personas. Si cada menú incluye 3 platos diferentes, ¿cuántos platos tendrá que preparar en total?

44. Un señor tiene ocho decenas de lapiceros. ¿De cuántos lapiceros dispone? ¿Cuántos le faltan para tener una centena?

45. Borja tiene el triple de años que Luis. ¿Cuántos años tiene Borja si Luis tiene 8 años?

46. Si Diana tiene 9 años, ¿cuántos años tiene su madre si tiene el triple de años que Diana?

47. El profesor de Educación Física ha colocado a los alumnos de la clase en 8 grupos de 3 alumnos cada grupo. ¿Cuántos alumnos hay en clase?

48. Para la campaña de recogida de alimentos, Marita ha llevado 3 paquetes de arroz y Rubén el doble. ¿Cuántos paquetes ha llevado Rubén?

49. Bruno gasta 2 pares de botas al año. ¿Cuántos pares de botas gastará en 7 años?

50. Marta tiene ahorrados 355 euros. Si para comprarse un microondas le faltan 182 euros, ¿cuánto dinero le cuesta el microondas?

51. A Rosa, después de gastarse 68 euros, aún le quedan 75 euros. ¿Cuánto dinero tenía?

52. Un granjero tenía 2572 gallinas y adquirió 4005 más. ¿Cuántas gallinas tiene ahora?

53. ¿Cuánto pagó mi tía Marta en total por una camisa de 289 euros, un pantalón de 457 euros y una corbata de 159 euros?

54. Quiero comprar un coche que cuesta 85.170 euros, como es mucho dinero lo pagaré en varios meses pero, si se paga el primer día todo, su precio baja 7.400 euros. ¿Cuál sería su precio en este caso?

55. Un camionero recorre un día 79 km y, al día siguiente, 17 km más que el primer día. ¿Cuántos kilómetros hizo en los dos días?

56. En un bidón de 73 litros añadimos 24 litros. ¿Cuántos litros de agua contendrá el bidón?

57. El padre de Matilde tiene ahora 43 años. ¿Qué edad tenía hace 15 años?

58. En un concurso, Pablo ha conseguido 97 puntos, y su pareja, Antonia, ha logrado 19 puntos menos que él. ¿Cuántos puntos ha conseguido Antonia? ¿Cuántos puntos han conseguido entre los dos?

59. Nieves tiene ahora 37 años. ¿Cuántos tendrá dentro de 13 años?

60. Después de vender 138 melones quedan 78 en un almacén. ¿Cuántos melones había?

61. Calcula las manzanas que hay al añadir a ciento ochenta manzanas amarillas otras tantas verdes.

62. Una fuente tiene que llenar un barril de 59 litros. Si ha echado 25 l. ¿Cuántos litros deberá echar para completar el barril?

63. ¿Cuántos kilogramos de naranjas hay en total entre tres cajas de 12 kg, 15 kg y 10 kg?

64. En la piscina se están bañando 76 personas. De repente se salen 34. ¿Cuántas personas quedan dentro de la piscina?

65. Una colección de cromos de fútbol tiene 96 cromos. Si tengo 82, ¿cuántos me faltan para acabar la colección?

66. Un padre reparte entre sus tres hijos la hucha de tres años seguidos: a Miguel 358 €, a José 234 € y Ana recibe 99 €. ¿Cuánto dinero ha repartido?

67. Cuánto dinero tiene Ana en su hucha si tiene las siguientes monedas: 1 billetes de 50 €
1 moneda de 2 € y 34 monedas de 1 €

68. En una tienda hay 58 latas de limonada y 42 latas de naranja. ¿Cuántas latas de limonada hay más que de naranja?

69. Mi libro de lectura tiene 98 páginas y el de mi hermana pequeña 48. ¿Cuántas páginas tengo que leer más que mi hermana?

70. Un niño ha leído 4 libros de 200 páginas cada uno, ¿cuántas páginas ha leído en total?

71. Un avión va 9 veces de Tenerife a Madrid con 258 pasajeros en cada viaje, ¿cuántos pasajeros transporta?

72. En un país nacen 8 niños por minuto, ¿cuántos niños nacen por hora?

73. Un mecanógrafo escribe 208 folios cada semana, ¿cuántos folios escribe en 6 semanas?

74. Una camioneta lleva 2 cubas de vino de 324 litros cada una. ¿Cuántos litros hay entre las dos cubas?

75. El contorno de una rueda de bicicleta tiene aproximadamente 142 cm de longitud. Si la rueda ha dado 4 vueltas, ¿cuántos cm ha recorrido?

76. Para cada alumno de un colegio se compraron dos platos. En el colegio hay 356 alumnos, ¿cuántos platos se compraron en este colegio?

77. El Sr. Linares gasta diariamente 46 euros en gasolina. ¿Cuánto gasta en 9 días?

78. En una casa hay tres bidones de agua. Cada bidón tiene 100 litros de agua. ¿Cuántos litros de agua hay en la casa?

79. La Sra. Álvarez gasta 28 euros semanalmente en leche. ¿Cuánto gasta en 5 semanas?

80. Una empresa ha mandado 1.385 cartas de propaganda. Cada carta lleva un sello de 2 euros. ¿Cuánto dinero ha gastado en sellos?

81. Un colegio ha comprado 806 camisetas a 9 euros cada una. ¿Cuánto dinero se ha gastado?

82. Luisa va todos los días a la escuela en bicicleta. Si la escuela está a 1.250 metros de su casa y tiene que ir a clase mañana y tarde. ¿Cuántos kilómetros recorre Luisa cada día?

83. Lola tiene 45 cromos para jugar, Silvia el triple y Eugenia el doble que Lola. ¿Cuántos cromos tienen entre las tres?

84. Silvia plantó 250 margaritas blancas y 380 margaritas amarillas. Se le han estropeado 170 margaritas. ¿Cuántas margaritas le quedan?

85. Una abuela da 60 céntimos a cada una de sus tres nietas. ¿Cuántos céntimos ha repartido en total?

86. En la clase de gimnasia los alumnos se colocan en filas de a cinco. Hay cuatro filas de chicos y 3 filas de chicas. ¿Cuántos niños hay en la clase de gimnasia?

87. Cada lápiz cuesta 10 céntimos, si queremos comprar 3. ¿Cuánto tendremos que pagar?

88. Una familia compra 4 barras de pan diario, ¿cuántas barras comprará en una semana?

89. Un hotel de Cádiz tenía el sábado 266 clientes. Se fueron 86 y llegaron 29. ¿Cuántos clientes tiene ahora?

90. Un avión volaba a 9.800 metros de altura. Primero ha bajado 2.300 metros y luego ha bajado 3.400 metros más. ¿A qué altura vuela ahora?

91. Un camión cisterna llevaba 67.972 litros de gasolina. Ha dejado 32.600 litros en una gasolinera y 34.100 litros en otra. ¿Cuántos litros tiene ahora?

92. Paloma, María, Carlos y Fernando han ahorrado dinero durante un año para hacer un viaje. Cada uno ha aportado 132 euros. ¿Cuánto han ahorrado entre todos?

93. Antonio tiene 88 cromos y Lucía tiene 23 cromos más que Antonio. ¿Cuántos cromos tiene Lucía?

94. En un jardín hay 128 gladiolos, 213 claveles y 236 tulipanes. ¿Cuántas flores hay en el jardín?

95. Manolo y María se han comprado una bolsa de caramelos. A María le han tocado 27 y a Manolo 9 caramelos más que a María. ¿Cuántos caramelos había en la bolsa?

96. El padre de Rosa tiene ahora 43 años. ¿Qué edad tenía hace 15 años?

97. La madre de Nieves tiene ahora 37 años. ¿Cuántos tendrá dentro de 13 años?

98. Un ganadero tenía en el redil 93 corderos. Va a la feria y compra 49 ovejas. ¿De cuántos animales se compone ahora el rebaño?

99. Después de una fuerte tormenta de granizo han quedado en un tejado 98 tejas de las 235 que había. ¿Cuántas se han roto?

100. Guillermo ha regalado 30 cromos de su álbum de plantas a cada uno de sus 6 amigos. Él se ha quedado con 135. ¿Cuántos cromos tenía antes Guillermo?

101. José Luis ha vendido 150 coliflores a 2 euros cada una y 225 sandías a 3 euros cada una. ¿Cuánto dinero ha recibido?

102. Luis tarda en desayunar 9 minutos y su hermana pequeña el doble. ¿Cuánto tiempo tarda la hermana de Luis en desayunar?

103. El conejo que tiene Jaime en el campo se ha comido 301 zanahorias, y el conejo de Alba, el doble. ¿Cuántas zanahorias se han comido entre los dos?

104. Una vaca da 32 litros de leche al día. ¿Cuántos litros dará en una semana?

105. Un ciclista se entrena 6 horas diarias. ¿Cuántas horas de entrenamiento hará durante el mes de enero?

106. Dina tiene que hacer 7 ejercicios de lengua y 6 veces más de matemáticas. ¿Cuántos ejercicios tiene que hacer en total?

107. ¿Cuántos días hay en 12 semanas?

108. En un pinar había 8.629 pinos. Han cortado 2.753 y luego han plantado 3.061. ¿Cuántos pinos hay ahora?

109. Francisco ha comprado un coche que cuesta 8.433 euros y ha pagado de entrada 2.190 euros. ¿Cuánto le falta por pagar?

110. En el barrio de Víctor se han recogido 7.273 juguetes para que otros niños los vuelvan a utilizar. ¿Cuántos juguetes quedan por repartir si ya se han repartido 5.161 juguetes?

111. En una granja hay 4.018 pollos, 370 gallinas y 2.501 patos. ¿Cuántos animales hay en total?

112. Alejandro tiene 5 amigos: Ana y Javier tienen 8 años; Raquel, Pedro y Carlos tienen 9 años. ¿Cuántos años tienen en total Ana, Raquel y Carlos?

113. En la ciudad de Madrid, durante el año 1992 se registró un total de 105 días de lluvia. ¿Cuántos días no llovió?

114. En una bodega caben 2.375 botellas y, en este momento, sólo hay 1.689 botellas. ¿Cuántas botellas caben todavía en la bodega?

115. Los vecinos de un pueblo plantaron 875 árboles el sábado y 697 árboles el miércoles siguiente. De todos estos árboles, 98 se murieron por falta de riego. ¿Cuántos árboles quedaron?

116. En un campo hay 9 filas, con 108 manzanos cada una. ¿Cuántos manzanos hay? Si cogemos 5 manzanas de cada manzano, ¿cuántas manzanas cogeremos?

117. Un camión cisterna transporta 980 litros de leche. ¿Cuántos litros transportarán 8 camiones iguales?

118. Un esquimal quiere construir 9 iglúes, y para cada uno necesita 356 bloques de hielo. ¿Cuántos bloques de hielo necesita?

119. Manolo tiene 24 cromos que ha de pegar en tres hojas de su álbum. En la primera hoja pega 8 cromos y en la segunda 4. ¿Cuántos cromos pegará en la tercera hoja?

120. Una bañera tiene una capacidad de 248 litros. Quieres llenarla con un cubo de 8 litros. ¿Cuántos cubos necesitarás?

121. El depósito de gasolina de un coche tiene una capacidad de 45 litros. Si tiene en este momento 12 litros, ¿cuántos litros necesitamos para llenarlo?

122. Una caja de leche tiene 6 tetra-brik de 1 litro. ¿Cuántas cajas necesito para tener 36 litros?

123. El Ayuntamiento ha arreglado una calle de 427 metros, una travesía de 127 metros y una avenida de 957 metros. ¿Cuántos metros de vía pública se han arreglado?

124. Un ciclista recorre el primer día de entrenamiento 148 km; el segundo, 127, y el tercero, 217. ¿Cuántos kilómetros ha recorrido entre los tres días?

125. Teresa cumplió 43 años en 2006. ¿En qué año nació?

126. Un grifo arroja 9 litros de agua por minuto. ¿Cuánto tardará en llenar un depósito de 4.752 litros?

127. Un panadero fabrica todos los días 186 barras de pan. ¿Cuántas fabricará en 5 días?

128. Miguel tiene 13 años, Juan 4 años menos que Miguel y su abuelo 9 veces más que Juan. ¿Cuántos años tiene Juan? ¿Cuántos años tiene el abuelo?

129. Si seis panes pesan 1.590 gramos, ¿cuánto pesará un pan?

130. Con las 100 flores que tengo confecciono 3 ramos de 32 flores cada uno. ¿Cuántas flores me sobrarán?

131. Una caja de pinturas, un libro y un estuche cuestan 120 euros. Si el libro vale 107 euros y el estuche vale 9 euros, ¿cuánto vale la caja de pinturas?

132. A un niño le han regalado dos colecciones de cromos. La primera está formada por 68 cromos y la segunda por 56. Entrega a su hermana la mitad de los cromos. ¿Cuántos cromos se queda él en total?

133. Un tren, que llevaba 42.503 toneladas de carbón, sufre un accidente y pierde 25.304 toneladas. ¿Cuánto carbón queda en el tren?

134. Un avión, que volaba a 14.507 m de altura, baja 7.348 m. ¿A qué altura se encuentra ahora?

135. Un camión cisterna transporta 74.708 litros de gasolina. El tanque está dividido en tres compartimentos. En el primero hay 12.472 litros, y en el segundo, 23 701. ¿Cuántos litros hay en el tercer compartimento?

136. María se compró un reloj por 7.643 euros. Al cabo de algunos años lo vendió perdiendo 1.743 euros. ¿Por cuánto lo vendió?

137. Si una bolsa tiene 162 caramelos y somos 8 personas, ¿Cuántos caramelos nos toca a cada uno?

138. En un campo de fútbol, que tiene capacidad para 38.500 espectadores, se han vendido 34.768 entradas. ¿Cuántas entradas no se han vendido?

139. Una abuela da 450 céntimos a sus tres nietas. ¿Cuántos céntimos ha repartido a cada una?

140. En el laboratorio donde trabaja mi tío Federico, se han fabricado en un solo día 8.376 pastillas de sabor amargo. ¿Cuántas cajas de pastillas se han llenado si en cada una caben 8 pastillas?

141. Patricia necesita colocar 96 libros en cajas. Si en cada caja sólo caben 8 libros, ¿Cuántas cajas necesitará? ¿Sobra algún libro?

142. En un parque hay 396 bombillas. Cada farola tiene 3 bombillas. ¿Cuántas farolas hay en el parque?

143. En la liga de baloncesto de colegios hay 785 jugadores. Si cada equipo tiene 5 jugadores. ¿Cuántos equipos hay en la liga?

144. Una biblioteca había 2.408 libros, la biblioteca cerró y se llevaron los libros a 7 colegios. ¿Cuántos libros tocó a cada colegio? ¿Alguno tiene más libros?

145. Alberto compró 372 ladrillos y los quiere apilar en 3 grupos. ¿Cuántos ladrillos hay que poner en cada grupo?

146. En la granja, hay 15 gallinas y durante la noche guardan 4 en cada jaula. ¿Cuántas jaulas necesitan?

147. Las pilas se venden en paquetes de 4. ¿Cuántos paquetes son 64 pilas?

148. En cada paquete, vienen 8 pastillas de limón. ¿Cuántos paquetes se completarán con 176 pastillas?

149. Romina necesita 90 caramelos para llenar sus bolsitas sorpresa de cumpleaños. Cada paquete trae 6 caramelos. ¿Cuántos paquetes de caramelos tiene que comprar?

150. Si Adriana reparte 80 facturas en 9 bandejas, ¿cuántas facturas pone en cada bandeja?

151. Jazmín compró 68 chupetes y quiere completar bolsas de 5 chupetines cada una. ¿Cuántos chupetes sobran?

152. Nicolás quiere repartir 823 clavos en paquetes de 7. ¿Cuántos clavos le van a sobrar?

153. Diego, el kiosquero, compró 358 caramelos sueltos y los quería colocar en paquetes de 8. ¿Cuántos paquetes obtuvo?

154. Juan tiene que envasar 478 potitos en cajas de 6. ¿Cuántos potitos sobran?

155. En un tren van a viajar 490 personas. Si tiene 7 vagones. ¿Cuántas personas viajarán en cada uno?

156. Si el total del precio de un viaje es 3.985 euros y vamos 6 personas. ¿Cuánto pagaremos cada una?

157. Un empresario tiene 683 bolsos y quiere repartirlo entre sus 7 tiendas. ¿Cuántos bolsos le tocará a cada tienda?

158. Un depósito con 12.250 litros de gasolina surte a 9 surtidores. ¿Cuántos litros repartirá por igual en cada no?

159. En un tren viajan 490 personas. Si tiene 7 vagones. ¿Cuántas personas viajarán en cada uno?

160. Una caja tiene 44 pelotas. Si hay 4 niños. ¿Cuántas pelotas les corresponderá a cada uno?

161. En mi cuaderno tengo 62 problemas. Si cada día hago 5. ¿En cuántos días acabaré el cuaderno?

162. De una granja cogimos 65 huevos. Nos hemos comido 4 docenas. ¿Cuántos huevos han sobrado?

163. Con 950 vacas Hemos formado 5 rebaños. ¿Cuántas vacas tiene cada rebaño?

164. Entre 5 cazadores han disparado 150 cartuchos. ¿Cuántos cartuchos ha disparado cada uno?

165. Tengo 126 avellanas y quiero ponerlas en bolsitas. ¿Cuántas bolsitas necesitaré, si en cada una pongo 6 avellanas?

166. En una jaula quedaron 28 periquitos después de vender 12 y escaparse 3 ¿Cuántos periquitos había en la jaula?

167. Una ardilla se come 6 piñones cada día. En total se ha comido 120 piñones. ¿En cuántos días se los ha comido?

168. Por un descuido se han roto 7 platos de 3 euros y 12 vasos de 2 euros cada uno. ¿A cuánto ascienden los desperfectos?

169. Si se reparten 186 euros entre 6 amigos. ¿Cuánto recibirá cada uno?

170. Hacer 6 veces mayor el número doscientos cincuenta y cuatro.

171. La cuerda de ovillo medía 365 metros y ahora nos quedan 143. ¿Cuántos metros de cuerda se han dado?

172. Durante las vacaciones hemos gastado 1.328 euros y todavía nos han sobrado 197 euros. ¿Con cuánto dinero salimos de viaje?

CALCULANDO

PLEASE WAIT...

3º Primaria

Jesuitinas GAMARRA

Alumno/a:

1.	642 + 235	481 + 123	326 + 293	108 + 715
2.	463 - 137	572 - 328	641 - 124	784 - 437
3.	983 x 3	605 x 4	248 x 5	793 x 6
4.	563 + 345	297 + 236	364 + 345	129 + 831
5.	843 x 7	295 x 8	702 x 9	396 x 2
6.	319 + 328	729 + 223	539 + 428	394 + 263
7.	728 - 154	637 - 382	904 - 271	519 - 193
8.	256 x 3	378 x 4	723 x 5	934 x 6

9.	579 + 673	483 + 517	742 + 950	851 + 135
10.	967 - 452	584 - 352	463 - 285	785 - 647
11.	247 x 5	893 x 7	352 x 9	842 x 6
12.	315 + 324	429 + 235	536 + 193	235 + 208
13.	846 - 773	567 - 234	729 - 217	396 - 284
14.	500 x 7	845 x 8	912 x 2	789 x 9
15.	225 + 725	378 + 128	230 + 400	429 + 336
16.	461 - 160	971 - 645	800 - 239	796 - 775

17.	301 x 1	498 x 8	656 x 9	789 x 7
18.	225 + 308	486 + 135	539 + 297	283 + 436
19.	483 - 310	959 - 128	846 -324	487 - 263
20.	923 x 3	783 x 5	951 x 6	486 x 8
21.	705 + 578	351 + 246	964 + 169	135 + 470
22.	752 - 209	643 - 239	735 - 456	276 - 263
23.	957 x 4	894 x 6	762 x 4	555 x 8

24. Calcula mentalmente:

9 - 5 - 2 = ...
8 - 6 - 0 = ...
12 - 4 - 6 = ...
20 - 5 - 4 = ...
48 - 5 - 3 = ...
124 - 4 - 2 = ...
328 - 28 - 2 = ...
826 - 126 - 2 = ...

6 - 4 - 1 = ...
7 - 2 - 1 = ...
15 - 7 - 2 = ...
36 - 6 - 4 = ...
62 - 7 - 5 = ...
236 - 5 - 6 = ...
750 - 45 - 5 = ...
642 - 2 - 2 = ...

25.

3.549	2.357	5.223	6.328
+ 5.648	+ 6.663	+ 3.775	+ 2.676

26.

3.468	4.139	6.345	6.148
- 2.196	- 2.256	- 2.897	- 2.487

27.

9. 325	8.243	6.837	6.925
x 26	x 36	x 54	x 87

28.

3.549	2.357	5.223	6.328
+ 5.648	+ 6.663	+ 3.775	+ 2.676

29.

3.468	4.139	6.345	6.148
- 2.196	- 2.256	- 2.897	- 2.487

30.

9.325	8.243	6.837	6.925
x 26	x 36	x 54	x 87

31.

29	15	32	64
39	23	43	59
+ 49	+ 41	+ 24	+ 79

32.

4.327	5.631	4.168	5.296
- 3.148	- 2.484	- 1.854	- 2.149

33.

7.546	4.894	8.237	9.785
x 23	x 37	x 54	x 78

34.

935	498	526	802
647	327	971	345
+ 329	+ 780	+ 423	+ 762

35.

8.032	4.901	8.521	5.796
- 5.728	- 3.722	- 7.342	- 2.649

36.

6.543	9.325	4.875	8.693
x 28	x 71	x 37	x 89

37.

724	509	637	913
536	438	182	456
+ 218	+ 891	+ 534	+ 873

38.

7.143	5.012	9.632	6.807
- 5.495	- 4.762	- 8.352	- 4.246

39.

6.753	8.345	5.976	9.784
x 39	x 17	x 46	x 76

40.

157	493	857	567
932	275	938	329
+ 842	+ 604	+ 402	+ 428

41.

3.278	9.340	4.826	7.948
x 25	x 27	x 73	x 49

42.

147	345	653	196
328	163	725	582
+ 465	+ 508	+ 378	+ 346

43.

2.413	3.329	7.934	5.748
- 1.362	- 2.728	- 3.456	- 1.297

44.

7.937	8.205	9.832	6.293
x 34	x 73	x 19	x 85

45.

144	458	257	231
255	554	366	456
+ 368	+ 123	+ 414	+ 396

46.

7.235	8.743	2.405	9.427
- 5.862	- 4.762	- 1.543	- 5.910

47.

1.909	1.895	6.283	2.749
x 82	x 37	x 79	x 89

48.

49 | 7	36 | 6	18 | 3	42 | 7

49.

81 | 9	72 | 8	21 | 7	35 | 5

50. 48 | 6 _____ 18 | 2 _____ 27 | 9 _____ 21 | 3 _____

51.

536	764	267	921
366	389	468	426
+ 479	+ 533	+ 515	+ 796

52.

8.275	9.733	5.409	9.528
- 6.842	- 4.563	- 4.563	- 6.920

53.

1.708	6.394	6.853	8.742
x 95	x 87	x 59	x 69

54. 49 | 7 _____ 42 | 6 _____ 24 | 3 _____ 56 | 7 _____

55. 36 | 9 _____ 40 | 8 _____ 63 | 7 _____ 45 | 5 _____

56. 54 | 6 _____ 16 | 2 _____ 45 | 9 _____ 15 | 3 _____

57. 40 | 8 _____ 45 | 9 _____ 24 | 3 _____ 14 | 2 _____

58.

123	459	548	475
687	798	768	675
+ 457	+ 213	+ 321	+ 546

59.

9.165	9.423	9.043	4.456
- 4.392	- 1.695	- 8.892	- 3.279

60.

6.925	4.182	1.095	7.508
x 38	x 56	x 92	x 79

61.

50 | 6 _____ 75 | 8 _____ 65 | 7 _____ 83 | 9 _____

62.

50 | 7 _____ 76 | 9 _____ 42 | 8 _____ 37 | 5 _____

63.

47 | 6 _____ 39 | 4 _____ 15 | 2 _____ 41 | 9 _____

64.

687	707	226	570
448	582	696	849
+ 293	+ 289	+ 922	+ 419

65.

8.025	4.215	5.046	9.017
- 3.697	- 2.155	-2.353	-8.273

66.

3.684	7.356	4.832	3.748
x 53	x 25	x 95	x 56

67.

302 | 7 _____ 267 | 3 _____ 194 | 5 _____ 265 | 6 _____

68. Calcula sin hacer las operaciones:

6 + 5 - 2 = ...
6 + ... - 2 = 10
10 - ... - 5 = 0
3 + 8 - ... = 15
15 + 5 - ... = 15

7 -5 + 2 = ...
12 + 12 - 24 = ...
8 + 7- 10 = ...
7 + 10+ ... = 20
... + ... + 10 = 20

69.

488	818	575	490
956	693	896	847
+ 304	+ 390	+ 949	+ 359

70.

7.025	8.245	9.044	9.027
- 2.647	- 2.753	- 2.760	- 5.678

71. 654 | 7 _____ 368 | 3 _____ 257 | 5 _____ 436 | 6 _____

72. Suma y resta mentalmente:

10 + 2 - 5 = ...
35 + 3 - 8 = ...
36 + 4 + 10 = ...
42 + 6 - 8 = ...

20 - 2 + 4 = ...
25 - 2 + 3 = ...
30 - 2 + 3 = ...
56 + 6 - 3 = ...

73.

689	707	226	570
748	582	696	849
+ 293	+ 289	+ 922	+ 419

74.

8.025	4.217	5.043	9.013
- 3.697	- 1.556	- 2.352	- 8.274

75.

2.403	8.736	3.748	5.632
x 26	x 45	x 37	x 98

76. 632 | 5 _____ 554 | 2 _____ 892 | 4 _____ 302 | 5 _____

77.

575	871	569	236
560	976	189	948
+ 139	+ 847	+ 658	+ 372

78.

7.023	3.724	7.812	4.259
- 3.854	- 2.935	- 6.983	- 3.629

79.

6.325	3.764	6.932	3.654
x 98	x 56	x 18	x 92

80.

977 | 2 _____ 291 | 8 _____ 845 | 7 _____ 372 | 6 _____

81.

894 | 5 _____ 745 | 6 _____ 523 | 4 _____ 672 | 3 _____

82.

54.823	62.510	12.439
87.654	378	45.275
+ 30.205	+ 84.753	+ 61.329

83.

54.823	62.510	12.439
87.654	378	45.275
+ 30.205	+ 84.753	+ 61.329

84.

40536	72301	35062
- 28.209	- 20.390	- 7.219

85.

31.926	47.504	27.385
x 19	x 28	x 37

86.

1.078 | 2	2.946 | 3	4.264 | 5

87.

64873	73621	23540
57954	267	34164
+ 40809	+ 73642	+ 72439

88.

31527	57603	97687
x 29	x 39	x 87

89.

3252 | 7	4283 | 6	5688 | 5

90.

61347	34072	21906
62534	48358	5329
+ 40513	+ 61903	+ 63548

91.

83740	54306	73516
- 26154	- 32656	- 29107

92.

30748	56123	81065
x 46	x 55	x 64

93.

1967 | 4 _____ 6498 | 9 _____ 2953 | 7 _____

94.

23504	701	41265
6927	81256	8092
+ 40182	+ 19364	+ 51742

95.

47031	50782	68340
- 18209	- 13490	- 13529

96.

52478	14035	67329
x 73	x 82	x 91

97. 2875 | 6 _____ 7232 | 8 _____ 7206 | 9 _____

98.

77542	30212	98645
- 31554	- 14693	- 16569

99.

74690	37351	89569
x 83	x 92	x 71

100. 6755 | 6 _____ 8322 | 8 _____ 6296 | 9 _____

101. Coloca las siguientes sumas y hazlas:

a) 18075 + 648 + 5306 + 90572 =
b) 62134 + 27810 + 467 + 9257 =
c) 81920 + 3683 + 46052 + 14269 =
d) 61023 + 841 + 7527 + 90486 =
e) 75463 + 5684 + 85320 + 439078 =
f) 435816 + 689 + 354693 =

102. Coloca las siguientes restas y hazlas:

a) 70214 - 16083 =
b) 42610 - 3265 =
c) 50638 - 46258 =
d) 90268 - 28149 =
e) 784532 - 54987 =
f) 235798 - 158024 =

103. 3878 | 6 _____ 7237 | 8 _____ 7203 | 9 _____

104. Haz las siguientes multiplicaciones:

921 x 100 = ...
603 x 10 = ...
725 x 1000 = ...
325 x 100 = ...
713 x 1000 = ...
467 x 100 = ...
358 x 10 = ...
227 x 1000 = ...

745 x 10 = ...
849 x 100 = ...
586 x 1000 = ...
167 x 100 = ...
236 x 10 = ...
531 x 1000 = ...
265 x 100 = ...
472 x 10 = ...

105.

54102	20964	14720
15693	9264	576
5618	34577	38054
+ 409	+ 15468	+ 2635

106.

4675 | 4 _____ 7686 | 8 _____ 9539 | 5 _____

107.

65213	19853	93619
26704	8153	465
6729	23466	27953
+ 518	+ 54357	+ 1524

108.

4956 | 4 _____ 9735 | 9 _____ 6572 | 8 _____

109.

27435	46302	83521
- 16815	- 7402	- 26259

110.

27875 | 9 _____ 40266 | 4 _____ 63107 | 5 _____

111.

20458 | 6 _____ 19432 | 7 _____ 68551 | 8 _____

112. Haz las siguientes divisiones con sus pruebas:

9205 | 6 _____ 3915 | 4 _____ 7618 | 2 _____

9806 | 3 _____ 7510 | 4 _____ 6348 | 3 _____

7538 | 7 _____ 4680 | 6 _____ 5341 | 8 _____

113.

14720	26134	31472
576	6578	5180
38054	41235	73256
+ 2635	+ 75042	+ 3592

114.

70352	90126	65032
- 18309	- 4653	- 25718

115. 8706 | 7 _____ 6932 | 6 _____ 9905 | 9 _____

116.

92508	76136	71879
354	6478	7932
26832	81637	96574
+ 9413	+ 95447	+ 8699

117.

76372	70626	64052
- 19349	- 8653	- 55519

118.

8469 | 8 _____ 5362 | 6 _____ 4913 | 5 _____

119.

9305 | 7 _____ 7854 | 6 _____ 8523 | 9 _____

■ **Cuenta de 2 en 2 y completa la serie**



Carrera de obstáculos

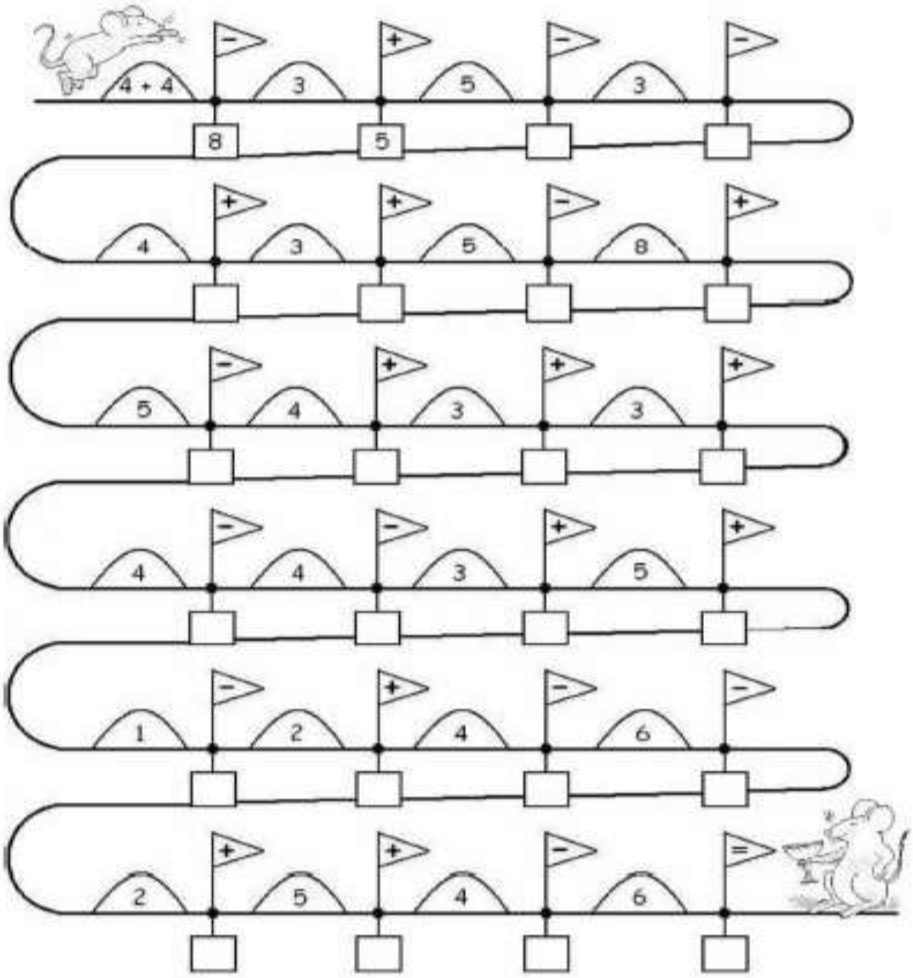

■ En cada serie hay un número que no pertenece a ella. Averigua cuál es y táchalo:

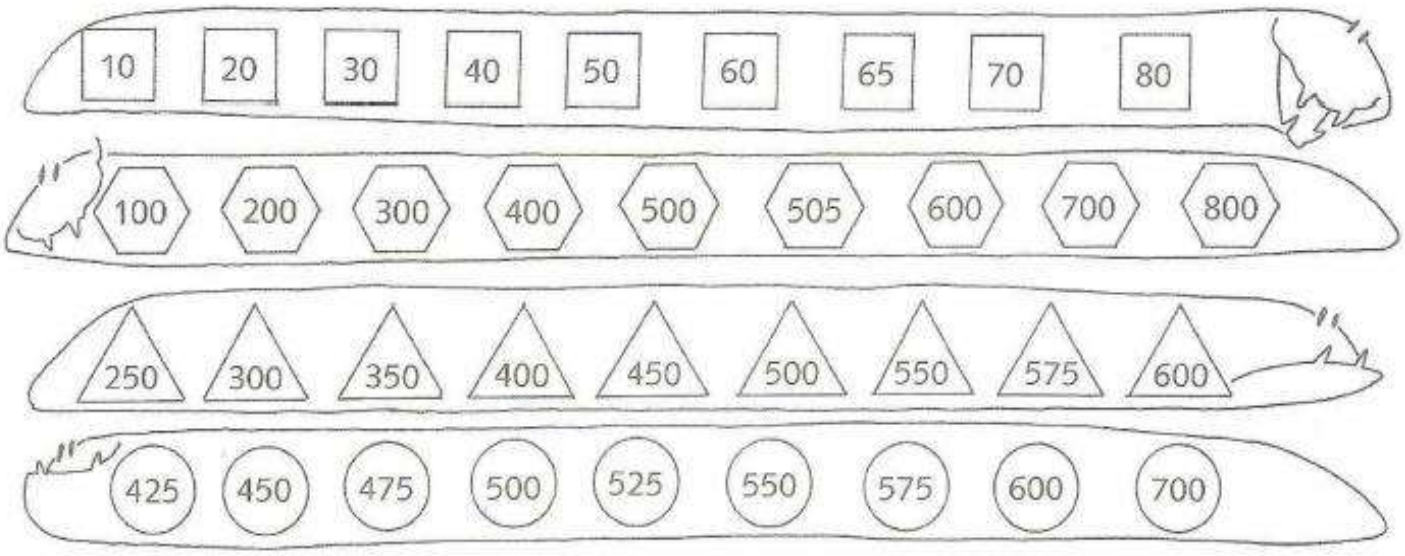

■ Completa la serie.

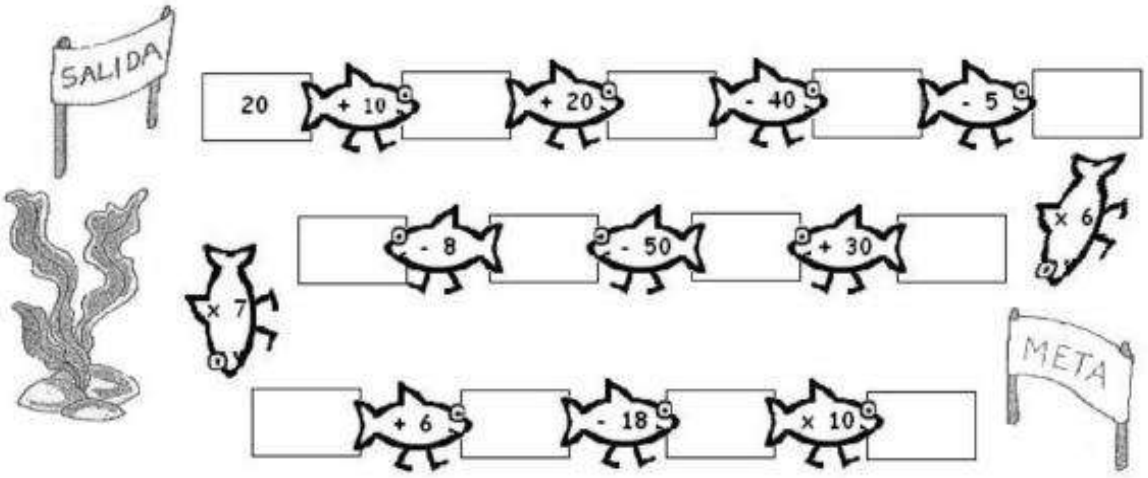

■ Sigue la serie.

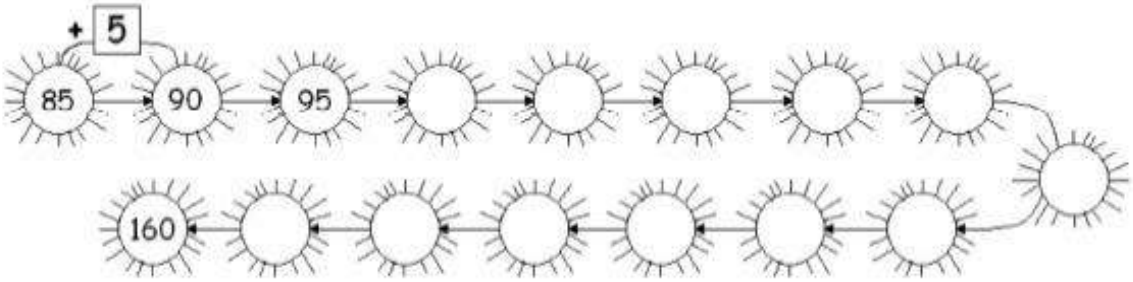

Carrera de obstáculos



■ Haz las operaciones y completa

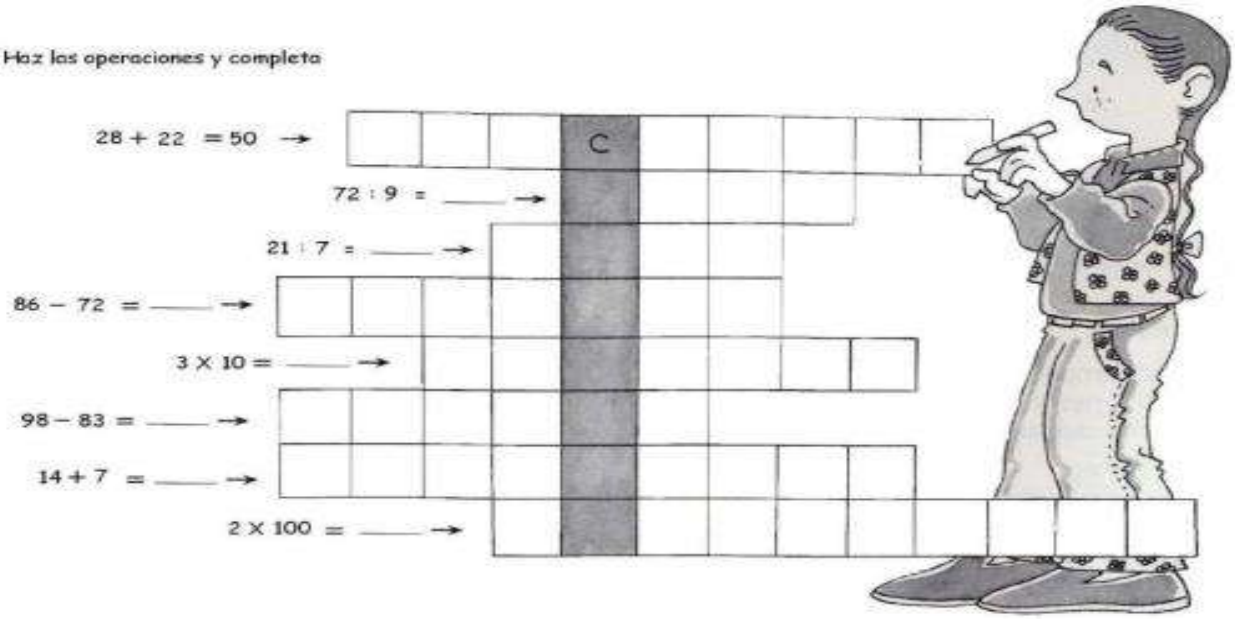

● ¿Qué palabra te ha salido en la columna coloreada? _____

3.465 ☐ 3.456	3.423 ☐ 2.856	7.396 ☐ 8.030
5.243 ☐ 5.261	4.208 ☐ 6.784	8.250 ☐ 8.310
7.525 ☐ 7.820	5.749 ☐ 8.971	9.100 ☐ 9.015

■ Completa las siguientes tablas de sumar y de restar

+ 10	
35	45
45	
60	
75	
80	
90	

+ 15	
35	
45	
60	
75	
80	
90	

+ 20	
35	
45	
60	
75	
80	
90	

+ 25	
35	
45	
60	
75	
80	
90	

- 10	
35	25
45	
60	
75	
80	
90	

- 15	
35	
45	
60	
75	
80	
90	

- 20	
35	
45	
60	
75	
80	
90	

- 25	
35	
45	
60	
75	
80	
90	

+ 50	
15	
20	
35	
40	
60	

- 50	
65	
70	
85	
90	
110	

+ 60	
12	
15	
18	
25	
30	

- 60	
72	
75	
78	
85	
90	

Averigua el mensaje secreto:

A 380 — 15	R 80 ÷ 4	E 5 × 8	G 3 × 7	C 5 × 9
T 250 ÷ 2	I 405 + 123	L 250 + 250	U 6 × 8	O 360 ÷ 6

Y 295 — 85	S Cuarto de 200	M Mitad de 300	N Triple de 12

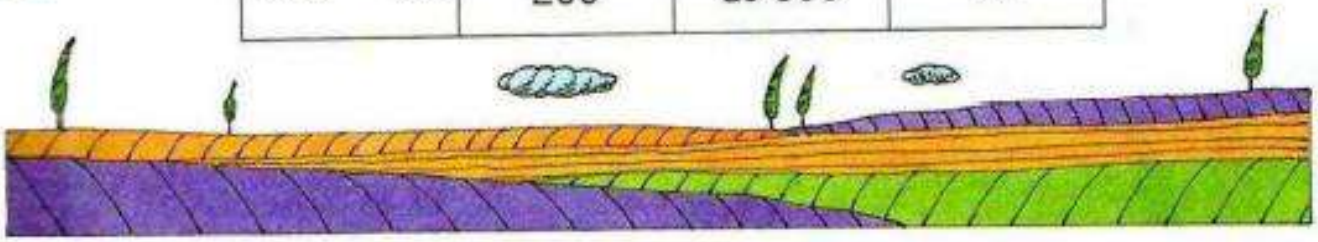

21 20 365 45 528 365 50 365

500 365 125 528 40 20 20 365 210

365 500 365 21 20 528 45 48 500 125 60 20

150 40 365 500 528 150 40 36 125 60 210 60



El laberinto numérico.



Calcula las siguientes operaciones:

a	b	a + b	a - b	a x b	a : b
15	3				
25	5				
18	6				
30	10				
16	2				
24	8				

■ **Escribe los números que faltan y colorea.**

- **De rojo, las casillas de los números mayores que 7500.**
- **De azul, las casillas de los números menores que 7500.**



■ **Completa.**

4 x 2 8 + 2 ◯ - 5 ◯ x 3 ◯ - 5 10

La pelota de colores.

67 → verde
50 → azul
38 → rojo
69 → amarillo
75 → naranja
55 → marrón

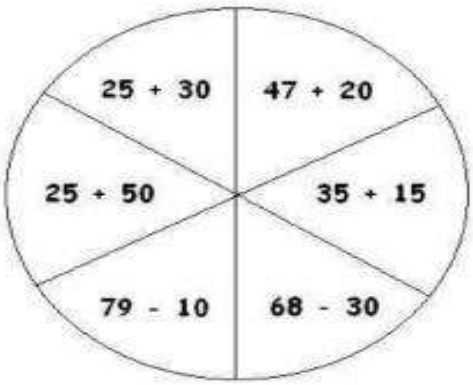



■ **Completa las siguientes series.**

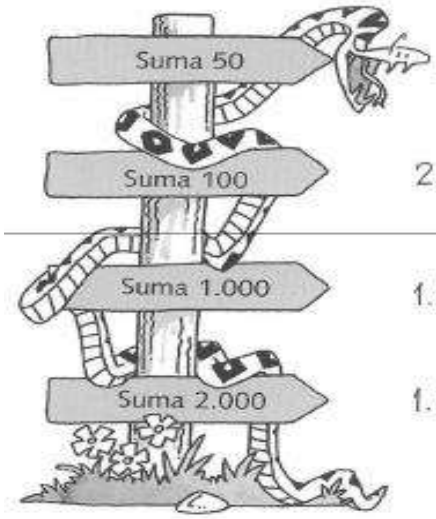

400 , _____ , _____ , _____ , _____

2.000 , _____ , _____ , _____ , _____

1.100 , _____ , _____ , _____ , _____

1.500 _____ , _____ , _____ , _____

■ Sigue la serie:

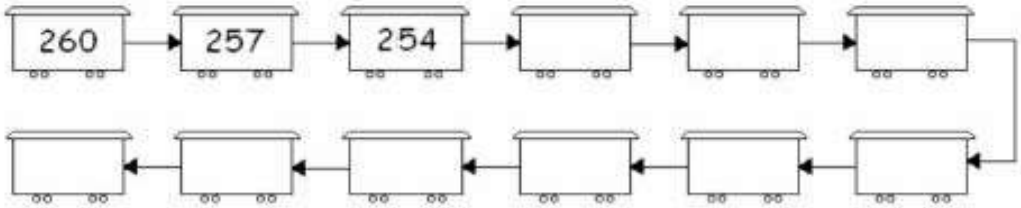

■ Resuelve las operaciones y colorea según los resultados:

250 ⟶ Amarillo
120 ⟶ Verde
48 ⟶ Azul

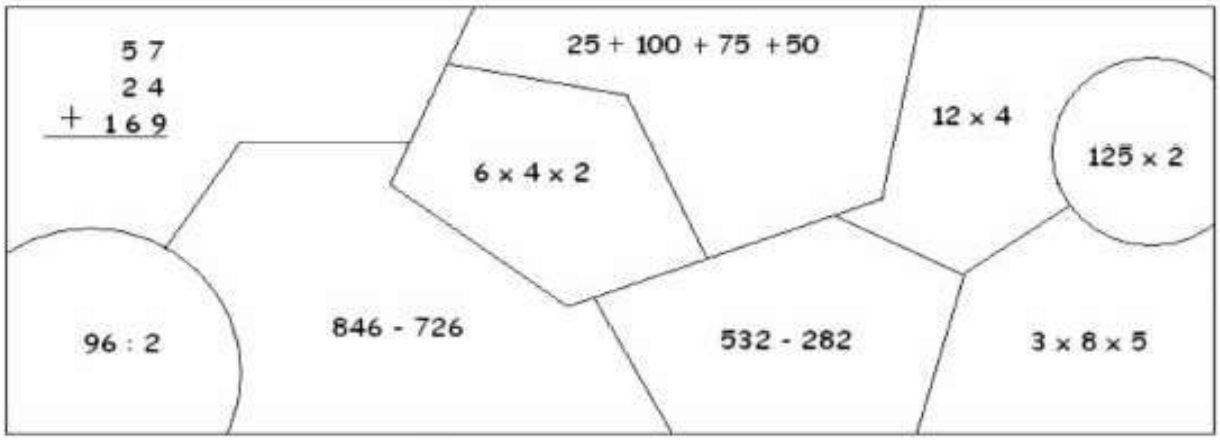

Calcula mentalmente y coloca el signo > < :

24 - 6	◯	15 + 7
60 - 30	◯	15 + 15
45 + 55	◯	200 - 100
300 + 50	◯	270 + 40
85 - 15	◯	100 - 30
86 + 4	◯	125 - 30
65 + 30	◯	35 + 60

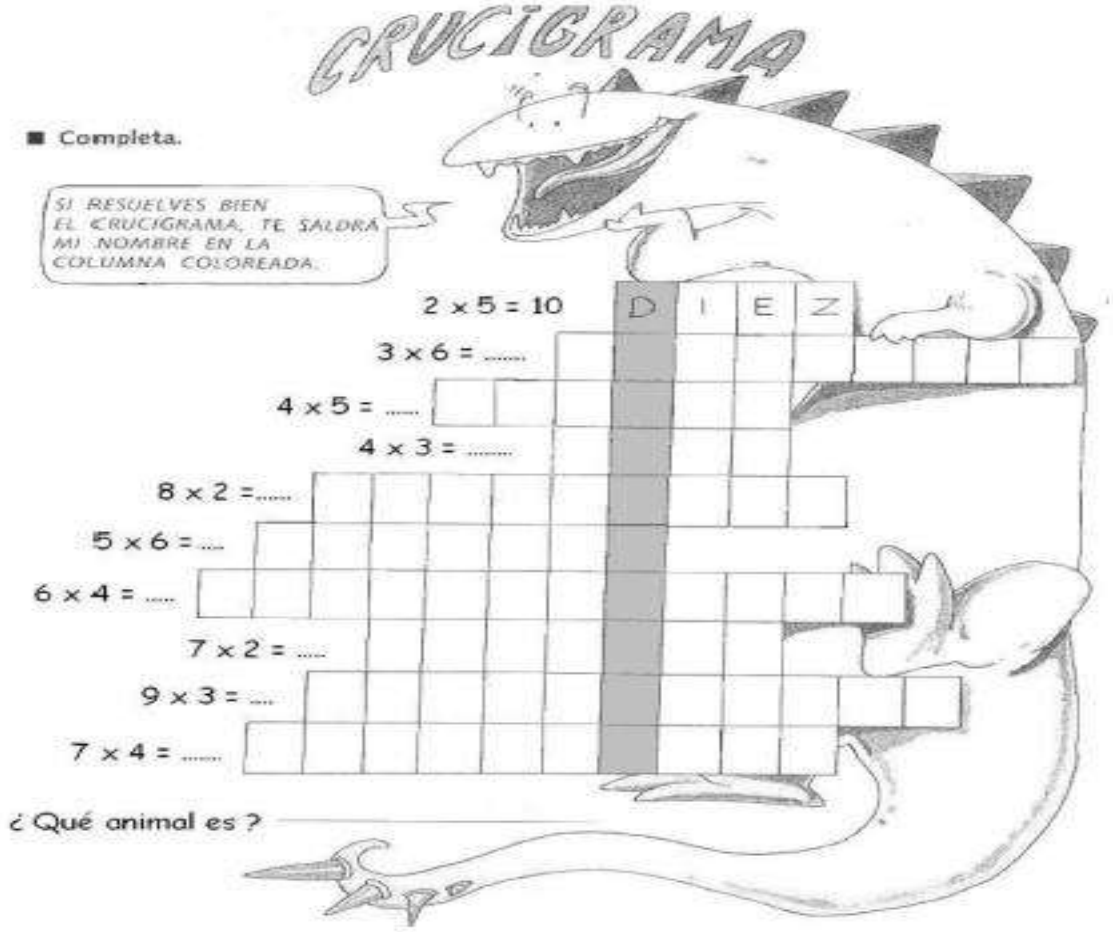

Crucigrama Numérico

5	+	3	+	5	=	.....		15
+		+		+		−		+
20	−	12	−	4	+	.....	=	.....
−		+		−		+		−
8	−	.....	−	2	=	2		.....
−		+		−		=		=
7	+	4	−	2	+	9	=	.....
=		−		+		+		
.....	+	5	−	.....	+	1	=	9
		=		=		=		
2	+	.....	−	.....	+	10	=	18

■ Colorea la respuesta correcta :

345 × 4	296 × 5	438 × 6
1.260 1.280 1.380	1.380 1.480 1.450	2.628 2.618 2.608
1.563 × 5	2.738 × 3	1.946 × 4
7.825 7.815 7.515	8.104 8.114 8.214	7.794 7.684 7.784

4 x 10 = ...	8 x 20 = ...	9 x 30 = ...
30 40 400	200 260 160	27 270 170
5 x 100 = ...	7 x 200 = ...	8 x 300 = ...
500 50 5.000	140 1.400 1.040	2.040 240 2.400

Adela ha comprado 8 barras de pan.Cada barra le ha costado 35 céntimos. ¿Cuánto se ha gastado Adela en total?

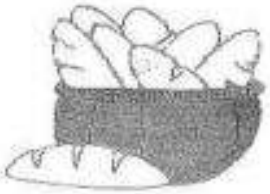

260

270

280

Los alumnos de tercero han hecho grupos de 7 alumnos para hacer un manual. En total han hecho 12 grupos. ¿Cuántos alumnos de tercero hay?

74

82

84